ESCOLA DE EDUCAÇÃO BÁSICA		
Ensino Fundamental	Disciplina: Matemática	
Trabalho de Matemática	Trimestre: 1°	
Nome:		Nº
Data: / / 2022	Período: M ( ) T ( )	2° Ano
Professora:		

Instruções:

1. **Faça com atenção.**
2. **Valor 4,0.**

Critérios de Correção:

1. **O cumprimento do que foi estabelecido nas instruções.**
2. **As questões sem resolução serão desconsideradas.**

Trabalho Interativo de Matemática 1° Trimestre

NA FEIRA

1)

Todos os sábados, Dona Tereza vai à feira fazer compras. Observe a quantidade de frutas que foram compradas por ela e escreva o número correspondente ao total:

UMA DÚZIA DE MAÇÃS



MEIA DÚZIA DE PERAS

LIVEWORKSHEETS

UMA DÚZIA E MEIA DE LARANJAS

DUAS DÚZIAS DE BANANAS



2)

leia com bastante atenção, cada uma das histórias matemáticas a seguir, faça os cálculos e resolva as situações-problema:

GABRIEL COMPROU UMA DÚZIA DE GOIABAS E DUAS DÚZIAS DE MARACUJÁS. QUANTAS FRUTAS ELE COMPROU NO TOTAL?

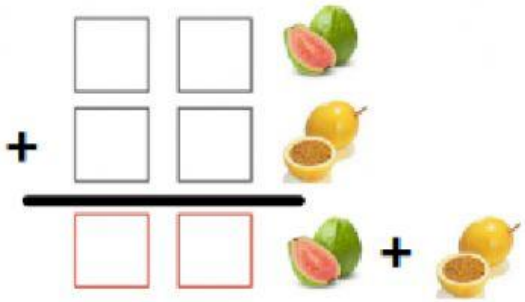

CLARA COMPROU DUAS DÚZIAS DE TANGERINAS E DUAS DÚZIAS DE ABACATES. QUANTAS FRUTAS ELA COMPROU AO TODO?

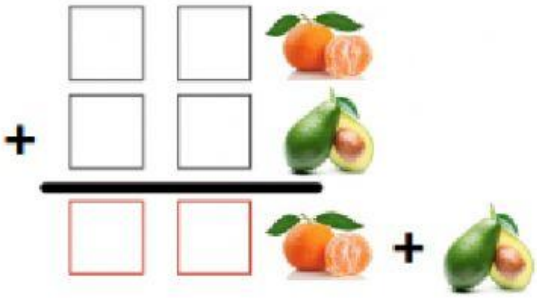

LIVEWORKSHEETS

ÉRICA COMPROU UMA DÚZIA DE MANGAS E MEIA DÚZIA DE CAQUIS. QUANTAS FRUTAS ELA COMPROU NO TOTAL?

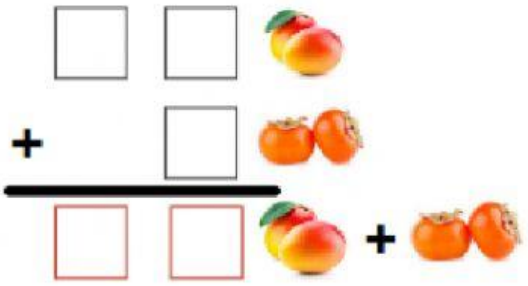

LUCAS COMPROU UMA DÚZIA E MEIA DE LIMÕES E UMA MELANCIA. QUANTAS FRUTAS ELE COMPROU AO TODO?

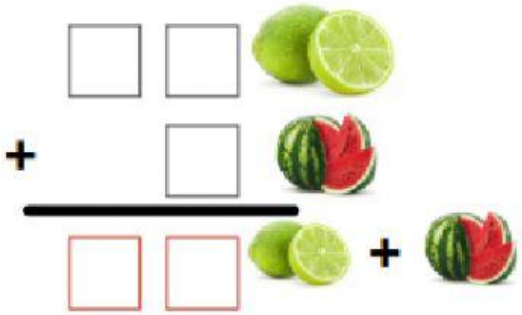

3)

ESCREVA EM CADA GRUPO DE FRUTAS QUANTAS UNIDADES FALTAM PARA COMPLETAR **UMA DÚZIA:**



5 MORANGOS PARA **UMA DÚZIA**

FALTAM ☐ UNIDADES



7 PÊSSEGOS PARA **UMA DÚZIA**

FALTAM ☐ UNIDADES

LIVEWORKSHEETS

3 AMEIXAS PARA **UMA DÚZIA**

FALTAM ☐ UNIDADES



8 CAJUS PARA **UMA DÚZIA**

FALTAM ☐ UNIDADES

Boa atividade!

Confio em você! ☺ 💙

LIVEWORKSHEETS