Математика 15.03.2022

1. Пропиши каліграфічно число 963.

Пиши цифри правильно!



2. Попрацюй усно.

Снігова Королева пообіцяла відпустити Кая, якщо він розв'яже всі її завдання. Допоможи йому разом з Гердою розв'язати ці завдання.

1. Знайди чотирикутні крижинки, у яких усі кути прямі. Назвй їх номери.

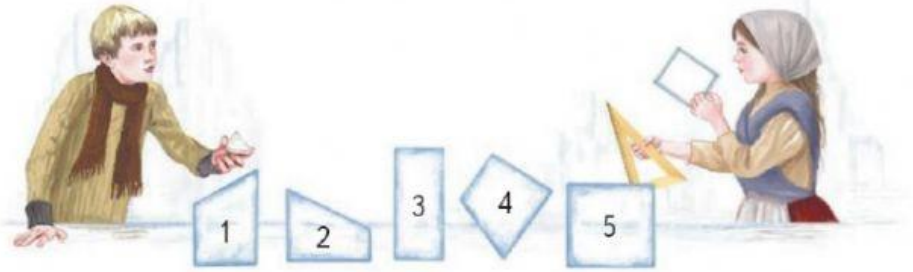

3. Прочитай та запам'ятай.

Довідничок

Чотирикутник, у якого всі кути прямі, називається прямокутником.

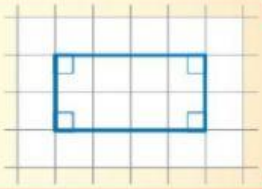

2. Склади із 6 лічильних паличок прямокутник.
Склади з 8 паличок прямокутник двома способами.

3. Герда показує Каю протилежні сторони прямокутника.

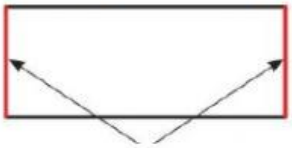

LIVEWORKSHEETS

Довідничок

Протилежні сторони прямокутника рівні.

4. Розв'яжи задачі

5. Виміряй довжини сторін прямокутників. Обчисли їх периметри.

6. Побудуй прямокутник зі сторонами 5 см і 3 см. Познач його вершини. Обчисли периметр прямокутника за підказкою Герди:

1) Накресли відрізок довжиною 5 см.
2) Прикладй до нього косинець з прямим кутом.
3) Накресли відрізок довжиною 3 см.
4) ...

Зразок.

Довжина –

Ширина –

Р - ?см

5. Приклади

2*6+8	2*9+4	2*7-5	2*2+2	2*7-6
2*4-6	2*5-4	2*2-2	2*2+30	2*8-8

6. Задача

У пакеті 2 кг цукру. Скільки кілограмів цукру в 4 таких пакетах?

7. Задача

Довжина городу 20м, а ширина – у 5 разів менше. Скільки метрів має ширину городу?

8. Вивчаємо таблицю множення.

LIVEWORKSHEETS