Geometria: triangeluak

✦ **Sailkatu hurrengo triangeluak (bai edo ez jarri laukitxo bakoitzean):**

	Aldeen neurriak	Aldeberdina	Isoszelea	Eskalenoa	Angeluzuzena	Zorrotza	Kamutsa
A 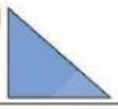	11 cm 13 cm 17,5 cm						
B	16 cm 16 cm 16 cm						
C 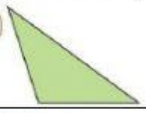	13 cm 13 cm 22 cm						
D 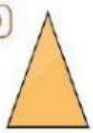	16 cm 16 cm 10 cm						
E	16 cm 14 cm 14 cm						
F 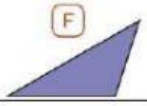	20 cm 14 cm 10 cm						
G	10,58 cm 10,58 cm 15 cm						

✦ **Pentsatu eta idatzi ea triangelu hauek egin daitezen:**
(Bai edo ez idatzi)

1. **Aldeberdina eta zorrotza den triangelu bat.**
2. **Eskalenoa eta zorrotza den triangelu bat.**
3. **Angeluzuzena eta aldeberdina den triangelua.**
4. **Aldeberdinak eta kamutsa den triangelua.**

LIVEWORKSHEETS