ข้อสอบปลายภาค โรงเรียนวัดโตนด สำนักงานเขตภาษีเจริญ กรุงเทพมหานคร

ภาคเรียนที่ 2 ปีการศึกษา 2564 ชั้นประถมศึกษาปีที่ 2

สาระการเรียนรู้วิชาคณิตศาสตร์ คะแนน 15 คะแนน เวลา 60 นาที

ชื่อ..... ชั้น ป.2 เลขที่ .....

<u>คำชี้แจง</u> ข้อสอบฉบับนี้ มี 2 ตอน คะแนนเต็ม 15 คะแนน

ตอนที่ 1 แบบอัตนัย 10 ข้อ (5 คะแนน)

ตอนที่ 2 แบบปรนัย 3 ตัวเลือก จำนวน 20 ข้อ (10 คะแนน)

<u>คำสั่งตอนที่ 1</u> ให้นักเรียนเติมคำตอบลงใน ☐ ให้ถูกต้อง

ค 1.1 ป. 2/5 (ข้อ 1 – 10)

1) 12 ÷ 4 = ☐	6) 32 ÷ ☐ = 4
2) 45 ÷ 9 = ☐	7) 48 ÷ ☐ = 6
3) 72 ÷ 8 = ☐	8) 50 ÷ ☐ = 5
4) 35 ÷ 5 = ☐	9) ☐ ÷ 4 = 5
5) 24 ÷ 12 = ☐	10) ☐ ÷ 8 = 10

<u>คำสั่งตอนที่ 2</u> ให้นักเรียนเลือกคำตอบที่ถูกต้องที่สุดเพียงข้อเดียว

ค 1.1 ป.2/6 (ข้อ 11-13)

11. ครูมีดินสอ 24 แท่ง แจกให้เด็ก 5 คน คนละเท่า ๆ กัน ได้ดินสอคนละกี่แท่ง และเหลือดินสอกี่แท่ง

ก. คนละ 4 แท่ง เหลือดินสอ 5 แท่ง

ข. คนละ 4 แท่ง เหลือดินสอ 4 แท่ง

ค. คนละ 5 แท่ง เหลือดินสอ 4 แท่ง

12. "วุ้นซื้อไข่ไก่มา 30 ฟอง จัดใส่ถุง ถุงละ 6 ฟอง วุ้นจะจัดไข่ไก่ได้กี่ถุง"
จากข้อมูล ข้อใดกล่าวถูกต้อง

ก. ประโยคสัญลักษณ์คือ 30 x 6 = ☐

ข. วุ้นหาจำนวนถุงโดย เอา 6 x ☐ = 30

ค. จำนวนถุงที่วุ้นหาคำตอบได้คือ 36 ถุง

LIVEWORKSHEETS

13. พอสมีเงิน 32 บาท ซื้อขนมถุงละ 5 บาท ได้มาก
ที่สุดกี่ถุง และเหลือเงินเท่าไร

ก. ซื้อได้ 5 ถุง เหลือเงิน 7 บาท

ข. ซื้อได้ 6 ถุง เหลือเงิน 2 บาท

ค. ซื้อได้ 6 ถุง เหลือเงิน 5 บาท

ค 2.1 ป.2/1 (ข้อ 14 - 18)

14. นาฬิกาที่กำหนด บอกเวลาอะไรในเวลากลางคืน

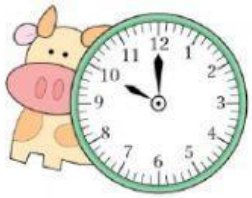

ก. 10 นาฬิกา ข. 12 นาฬิกา ค. 22 นาฬิกา

15. ตุ้ยนุ้ยตื่นนอนเวลา 5 นาฬิกา 30 นาที
นาฬิกาเรือนใดแสดงเวลาดังกล่าว

ก.

ข.

ค.

16. เข็มสั้นอยู่ระหว่างตัวเลข 7 และตัวเลข 8
และเข็มยาวชี้ที่ตัวเลข 6 พอดี เป็นเวลาอะไร
ในเวลากลางวัน

ก. 7 นาฬิกา 6 นาที

ข. 7 นาฬิกา 30 นาที

ค. 8 นาฬิกา 5 นาที

17. แก้มเริ่มทำการบ้านเวลา 17 นาฬิกา 40 นาที
และทำการบ้านเสร็จเวลา 18 นาฬิกา 10 นาที
แก้มใช้เวลาทำการบ้านกี่นาที

ก. 30 นาที ข. 50 นาที ค. 60 นาที

18. ถ้าวันนี้ตรงกับวันจันทร์ที่ 24 อีก 6 วัน
จะตรงกับวันอะไร

ก. วันอาทิตย์ที่ 30

ข. วันอังคารที่ 30

ค. วันศุกร์ที่ 30

ข้อ 19 อยู่หน้าถัดไป
ตั้งใจทำนะจ๊ะเด็ก ๆ

LIVEWORKSHEETS

ค 2.1 ป.2/6 (ข้อ 19 - 22)

พิจารณารูป แล้วตอบคำถาม

19. จากภาพข้อใดกล่าวถูกต้อง

ก. ถ้าตักน้ำครึ่งถังจะมีปริมาตร 6 ลิตร

ข. ตวงน้ำปริมาณ 3 ขวดใส่ถังจะเต็มถังพอดี

ค. เทน้ำ 6 ถ้วยลงในขวด จะทำให้น้ำเต็มขวดพอดี

20. มิ้นซื้อนมจืด กล่องละ 2 ลิตร จำนวน 5 กล่อง คิดเป็นนมจืดกี่ลิตร

ก. 3 ลิตร ข. 7 ลิตร ค. 10 ลิตร

21. "ตอนเช้าแม่ค้าขายถั่วเหลือง 39 ลิตร ตอนเย็นขายถั่วเหลืองได้อีกกี่ลิตร ทำให้ทั้งวันขายได้ 50 ลิตร" จากโจทย์ปัญหา ข้อใดถูกต้อง

ก. ประโยคสัญลักษณ์คือ 39 + 50 = ☐

ข. ตอนเย็นขายถั่วเหลืองได้ 89 ลิตร

ค. ตอนเย็นขายถั่วเหลืองได้ 11 ลิตร

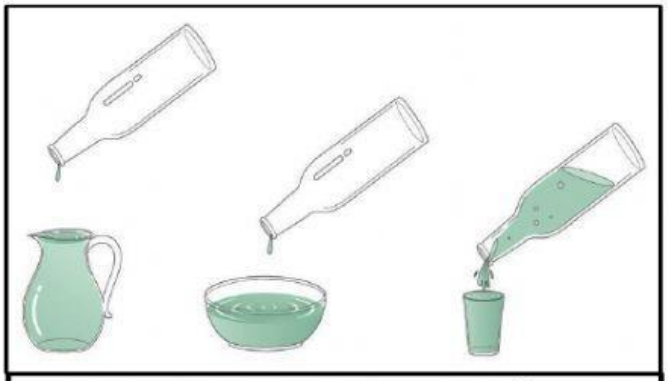

เหยือก	ชามแก้ว	แก้วน้ำ

22. จากภาพ ถ้าเดิมมีน้ำอยู่เต็มขวด ข้อใดกล่าวถูกต้อง

ก. ขวดมีความจุเท่ากับเหยือก

ข. ขวดมีความจุมากกว่าชามแก้ว

ค. เหยือกมีความจุมากกว่าชามแก้ว

ค 2.2 ป.2/1 (ข้อ 23 – 25)

23. รูปเรขาคณิตข้อใดมีแกนสมมาตรมากที่สุด

ก. 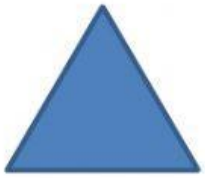

ข.

ค.

LIVEWORKSHEETS

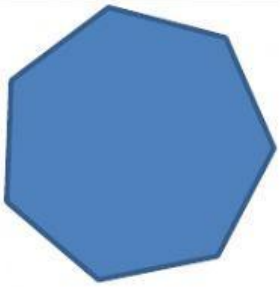

24. จากรูป เป็นรูปเรขาคณิตใด เพราะเหตุใด

ก. รูปสี่เหลี่ยม เพราะมีมุม 4 มุม

ข. รูปแปดเหลี่ยม เพราะมีด้าน 8 ด้าน

ค. รูปเจ็ดเหลี่ยม เพราะมีมุม 7 มุม

พิจารณาแบบรูปซ้ำของรูปเรขาคณิต แล้วตอบคำถามข้อ 25.

25. จากแบบรูปเรขาคณิต รูปที่หายไปคือรูปใด

ก. ข. ค.

ค 1.1 ป.2/7 (ข้อ 26 - 27)

26. (250 + 150) - 100 = ☐
ได้ผลลัพธ์เท่าใด

ก. 300 ข. 350 ค. 400

27. 18 ÷ (2 × 3) = ☐ ได้ผลลัพธ์เท่าใด

ก. 27 ข. 9 ค. 3

ค 1.1 ป.2/8(ข้อ 28 – 29)

28. แม่ค้ามีทุเรียน 40 ผล ขายไป 15 ผล ซื้อมาเพิ่มอีก 30 ผล แม่ค้าเหลือทุเรียนกี่ผล

ก. 55 ผล ข. 65 ผล ค. 85 ผล

29. ตี๋เก็บไข่ไก่ได้ 20 ฟอง แบ่งใส่ถุง ถุงละ 5 ฟอง นำไปขายถุงละ 20 บาท เมื่อขายหมดตี๋จะได้เงินกี่บาท

ก. 20 บาท ข. 40 บาท ค. 80 บาท

ค 3.1 ป.2/1(ข้อ 30)

แผนภูมิรูปภาพ การสอบถามนักเรียนชั้น ป.2 ว่าชอบผลไม้อะไรมากที่สุด ได้ข้อมูลดังนี้



กำหนดให้ ○ แทนจำนวนนักเรียน 2 คน

30. จากแผนภูมิข้อใดถูกต้อง

ก. มีนักเรียนชอบสตรอเบอรี่ 6 คน

ข. นักเรียนชอบมะม่วงน้อยที่สุด

ค. นักเรียนชอบทุเรียนมากกว่ามะม่วง 2 คน

LIVEWORKSHEETS