Tên: _____ Lớp: _____

CƠ CHẾ HÌNH THÀNH ĐIỆN THẾ HOẠT ĐỘNG

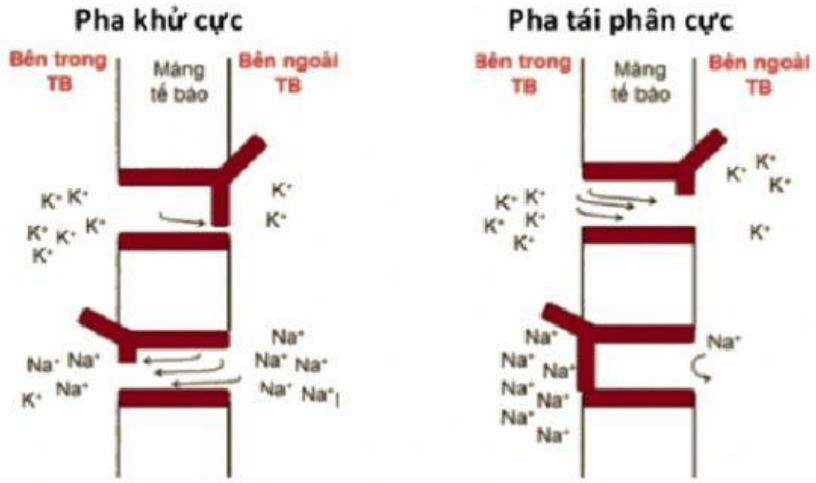

1

Quan sát hình ảnh 28.2, 29.2 SGK (trang 114, 118) và hoàn thành bảng sau:

Ion	Giai đoạn khử cực và đảo cực		Giai đoạn tái phân cực	
	Sự đóng mở các kênh	Chiều dịch chuyển của ion	Sự đóng mở các kênh	Chiều dịch chuyển của ion
K+				
Na+				

LIVEWORKSHEETS

CƠ CHẾ HÌNH THÀNH ĐIỆN THẾ HOẠT ĐỘNG

2

Pha khử cực và đảo cực:

Tác dụng của sự dịch chuyển các ion qua màng:

_____

_____

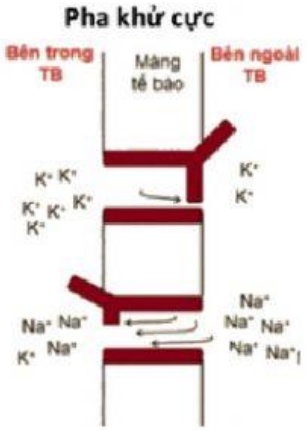

3

Pha tái phân cực:

Tác dụng của sự dịch chuyển các ion qua màng:

_____

_____

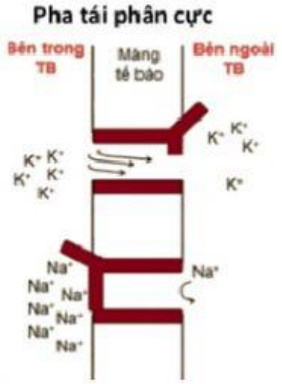

4

Bơm Na-K có hoạt động khi tế bào bị kích thích hay không? Nếu hoạt động thì vai trò của nó là gì?

_____

_____

_____

_____

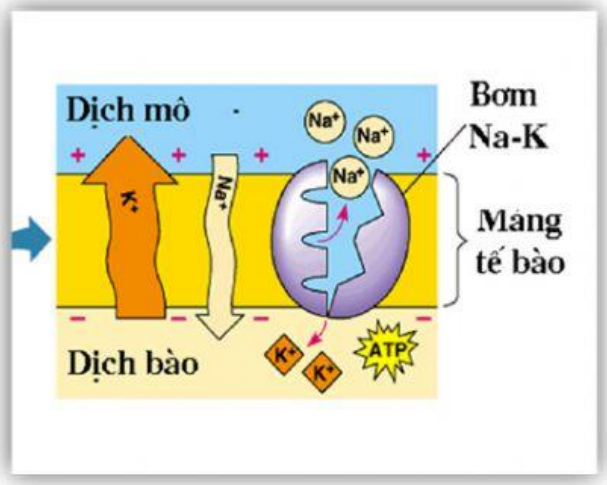

LIVEWORKSHEETS