معهد الشيخ خليفة بن سلمان للتكنولوجيا
Sh.Khalifa Bin Salman Institute Of Technology

اسم الطالب :	الشعبة:

اسم الدرس: العدسات المحدبة و المقعرة

تقويم الهدف الثاني

س1 / اختر رمز الإجابة الصحيحة في كل من الفقرات الآتية :

1. إذا سقط شعاع ضوئي على عدسة محدبة مواز للمحور الرئيس فإنه ينكسر .....

أ. مارا بمركز التكور

ب. مارا بالبؤرة

2 – إذا سقط شعاع ضوئي على عدسة محدبة مارا بالبؤرة فإنه .....

أ. ينكسر مواز للمحور الرئيس

ب. ينعكس مواز للمحور الرئيس

3. أي الشكلين يعبرعن الانكسار للأشعة الساقطة على وجه عدسة محدبة



أ.

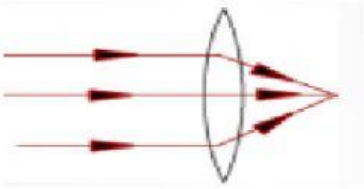

ب.

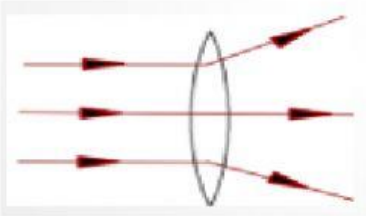

LIVEWORKSHEETS