Control Matemáticas. Unidad 8.
6º EP Curso 2021-22

14 de marzo de 2022

1. **Expresa en la unidad que se indica:**

En **metros**	En **litros**	En **gramos**
3 km, 2,4 dam y 12 dm	3,7 kl, 0,5 dal y 9 ml	1,2 kg, 3,6 hg y 2,3 dag

2. **Ordena de mayor a menor cada grupo este grupo de medidas (anota en el recuadro de abajo el número de orden que corresponde a cada uno)**

570.000 cm	5.280 m	534 dam	52 hm	5,6 km

3. **Expresa en metros cuadrados.**

• 5 hm 2, 8 dam^2 y 8.900 cm^2

• 0,03 hm^2, 23 dam^2 y 4.000 dm^2

4. **Completa.**

• 6 m3 = dm3

• 2,5 dm3 = cm3

• 8,9 dam3 = m3

5. **Completa.**

• 75 dm3 = cl

• 286 cm3 = ℓ

• 808 dm3 = kl

LIVEWORKSHEETS

6. Un agricultor ha comprado un terreno de 5,3 ha y 4,6 a. Para cultivar pistacho, debe plantar un árbol cada 36 m2. ¿Cuántos pistacheros debe plantar?

Respuesta: El agricultor debe plantar _____ pistacheros.

7. Carlota tiene un rollo de papel de 15 m y 50 cm. Primero corta un trozo de 1,5 m y después otro de 25 cm. ¿Cuántos metros de papel le quedan a Carlota?

Respuesta: A Carlota le quedan _____ metros de papel.

8. **Relaciona cada cubo con su volumen y capacidad**.

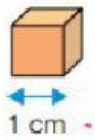 1	1ml	m^3
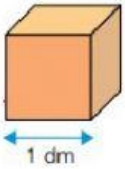 2	1kl	cm^3
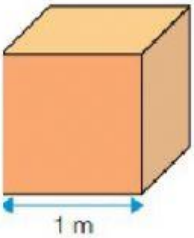 3	1l	dm^3

9. Resuelve y anota el cociente de estas divisiones:

72,85 : 23,5 cociente _____ 10,548 : 0,12 cociente _____

resto: 0 resto: 26

LIVEWORKSHEETS