La Salle Colegio Lima	**FICHA INTERACTIVA** **ÁREA: MATEMÁTICA** **NÚMEROS NATURALES**				100 años 100 años escribiendo historias, transformando corazones	
Alumno(a):					**Grado**	**Sección**
Docentes:	Katherine Diaz – Fiorella Cuevas – **Sandra Vargas**				2do	**A-B-C**
Fecha:	**…. / …. / 2022**	**Trimestre:**	**I**	**Nivel:**	**Prim.**	

COMPETENCIA: Resuelve problemas de cantidad	• **CAPACIDAD:** Comunica su comprensión sobre los números y las operaciones

Indicaciones generales: Lee cada pregunta y selecciona la respuesta correcta.

1.- Observa los carteles y marca como se escribe su número:

66

a) Setenta y seis

b) Sesenta y seis

c) Cesenta y seis.

91

a) Noventaiuno

b) Nobenta y uno

c) Noventa y uno

2.- Observa el material multibase y determina el número formado.

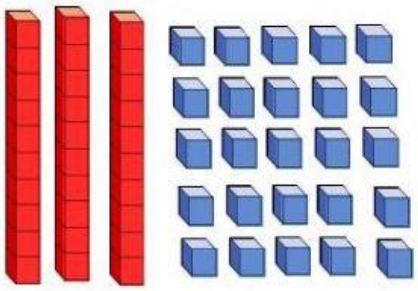

a) 35 b) 55 c) 45

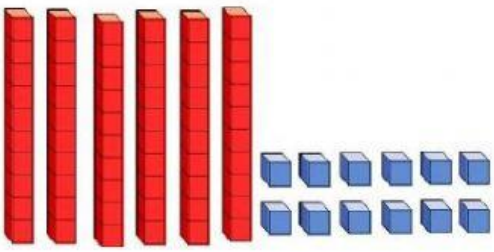

a) 62 b) 72 c) 70

3.- ¿Qué grupo de tarjetas tiene los números ordenados de MAYOR A MENOR?

A	**26 – 25- 27 – 24 - 23**
B	**44 – 43 – 42 – 41- 48**
C	**98 – 99 – 95 – 96 - 97**
D	**73 – 72 – 71 – 70 -69**

a) El grupo A

b) El grupo B

c) El grupo C

d) El grupo D

LIVEWORKSHEETS

4. Pedro guardó 14 chapitas en una bolsa y puso otras sobre la mesa. Observa:

¿Cuántos chapitas tiene en total Pedro?

a) 14 chapitas

b) 8 chapitas

c) 22 chapitas

5 .- Observa las galletas **y queques** **que hay sobre la mesa.**

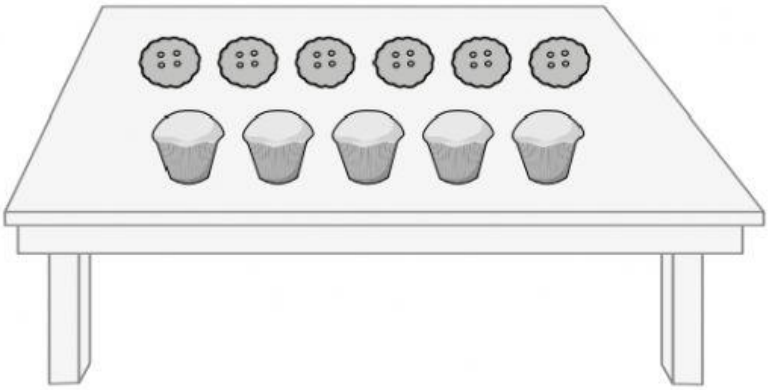

¿Cuál de estas comparaciones es correcta?

a La cantidad de galletas **es menor** que la de queques.

b La cantidad de galletas **es mayor** que la de queques.

c La cantidad de galletas **es igual** que la de queques.

LIVEWORKSHEETS

6. Tania tiene los siguientes lápices.



Con la cantidad de lápices que tiene Tania. ¿Cuántas decenas puede formar?

a) 1 decena

b) 3 decenas

c) 2 decenas

7. Micaela llevaba una canasta con 12 huevos. En el camino, se le rompieron algunos huevos. Ahora, le quedan 8 huevos sin romper. ¿Cuántos huevos se le rompieron a Micaela?

b) 4 huevos

b) 8 huevos

d) 20 huevos

LIVEWORKSHEETS