Repaso Intervalos

Antonio García Torres e Irene Santiago Gutiérrez

En este ejercicio tenemos vamos a repasar los intervalos aprendidos durante la unidad.
Para ello, debemos de reconocer los siuguientes intervalos y escribir su la solución de la siguiente forma:
- Indicar el número (1, 2, 3, 4...) del intervalo y luego CON LETRA si es mayor, menor, disminuido...



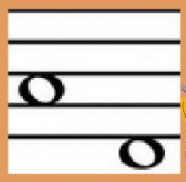



LIVEWORKSHEETS