EMASI VẠN PHÚC
nhà trường của thế hệ tiên phong

HÌNH TRÒN, TÂM, ĐƯỜNG KÍNH, BÁN KÍNH

Bài 1:

a) Viết chữ thích hợp vào ô trống:

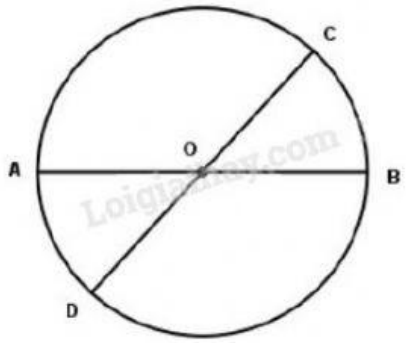

Đây là hình tròn tâm O.

- Các bán kính có trong hình tròn là:

- Các đường kính có trong hình tròn là:

b) Đúng ghi Đ, sai ghi S vào ô trống:

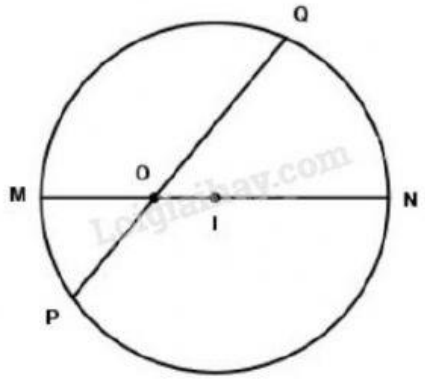

Đây là hình tròn tâm I.

- Các bán kính có trong hình tròn là : IM và IN. ☐

- Các bán kính có trong hình tròn là : OQ và OP ☐

- Đường kính có trong hình tròn là : MN. ☐

- Đường kính có trong hình tròn là : PQ ☐

LIVEWORKSHEETS

Bài 2: Cho hình tròn dưới đây

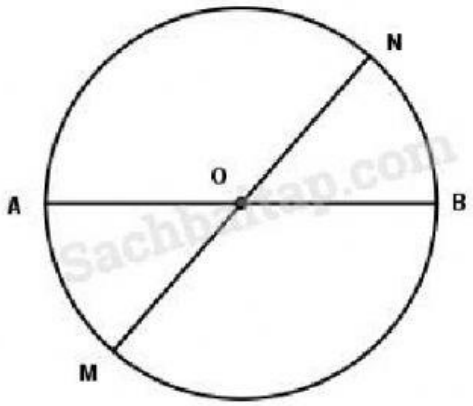

Đúng ghi Đ, sai ghi S vào ô trống :

- Độ dài đoạn thẳng OA lớn hơn độ dài đoạn thẳng OM ☐

- OM = ON ☐

- ON = $\frac{1}{2}$ MN ☐

- Độ dài đường kính gấp 2 lần độ dài bán kính ☐

- AB = MN ☐

Bài 3: Đúng ghi Đ, sai ghi S:

a) Trong một hình tròn, đường kính bằng $\frac{1}{2}$ bán kính

b) Trong một hình tròn, bán kính bằng $\frac{1}{2}$ đường kính

c) Các bán kính trong một hình tròn có độ dài bằng nhau

LIVEWORKSHEETS