LKPD

LEMBAR KERJA PESERTA DIDIK

NAMA :

KELAS :

NOMOR ABSEN :

TEMA 6 : ENERGI DAN PERUBAHANNYA

SUB TEMA 4 : PENGHEMATAN ENERGI

BUKU PAKET : HALAMAN 151 - 174

KOMPETENSI DASAR

BAHASA INDONESIA

3.2 Menggali informasi tentang sumber dan bentuk energy yang disajikan dalam bentuk lisan, tulis, visual, dan/atau eksplorasi lingkungan.

MATEMATIKA
3.6 Menjelaskan dan menentukan lama waktu suatu kejadian berlangsung.

PPKn
3.2 Mengidentifikasi kewajiban dan hak sebagai anggota keluarga dan warga sekolah.

SBdP
3.2 Mengetahui bentuk dan variasi pola irama dalam lagu.

LIVEWORKSHEETS

Menyimak Video pembelajaran

Silakan simak dengan cara klik video berikut :

1. **Ayo menulis,** tulislah informasi penting tentang energi alternatif yang didapatkan setelah menyimak video pembelajaran di atas atau buku paket !

LIVEWORKSHEETS

2. **Bacalah wacana " Menghemat Penggunaan Listrik " Buku paket halaman 152-153. Jawablah pertanyaan dibawah ini !**

1. Sebutkan hal-hal yang dilakukan Dayu dan keluarga untuk menghemat energi!

2. Sebutkan manfaat yang diperoleh dengan menghemat energi!

3. Mengapa menanam pohon termasuk kegiatan menghemat energi?

LIVEWORKSHEETS

3. **Pelajarilah cara mencari keliling dan luas pada buku paket halaman 158-159. Hitunglah luas persegi satuan gambar di bawah ini !**

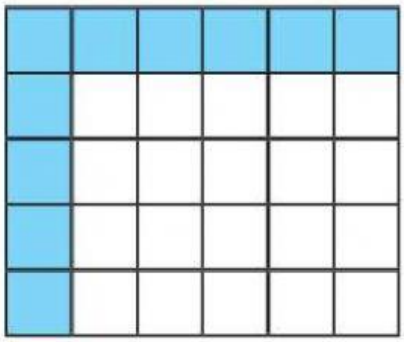

Luas = ... persegi satuan

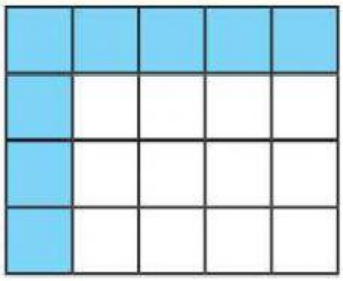

Luas = ... persegi satuan

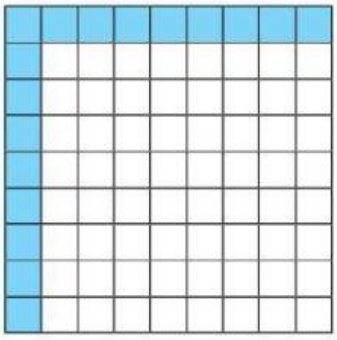

Luas = ... persegi satuan

LIVEWORKSHEETS

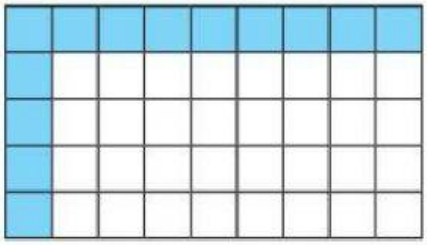

Luas = ... persegi satuan

4. **Perhatikan Gambar pada buku paket halaman 161 !**

Tuliskan 5 kegiatan yang termasuk pemborosan energi!

Tuliskan pula saran perbaikan untuk perilaku tersebut!

No	Perilaku pemborosan	Saran perbaikan
	Bermain mainan yang menggunakan energi listrik	Bermain permainan yang tidak menggunakan energi listrik
1		
2		
3		

LIVEWORKSHEETS

4		
5		

5. **Hitunglah luas gambar di bawah ini !**



Luas kipas udin adalah ... persegi satuan



Luas kipas Edo adalah ... persegi satuan

LIVEWORKSHEETS



Luas kipas Beni adalah ... persegi satuan.

6. **Pelajarilah cara menghitung luas bagian gambar pada buku paket halaman 187. Hitunglah luas bagian gambar di bawah ini !**



Luas bagian ... persegi satuan

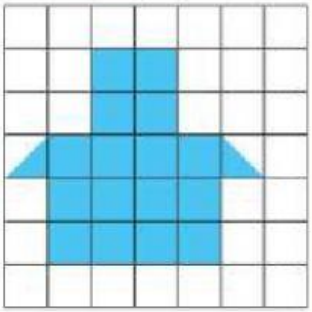

Luas bagian ... persegi satuan

LIVEWORKSHEETS

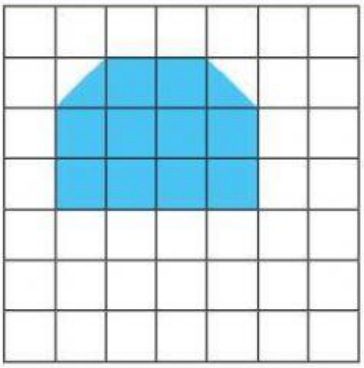

Luas bagian yang berwarna adalah ... persegi satuan.



Luas bagian yang berwarna adalah ... persegi satuan.

LIVEWORKSHEETS