KINGDOME OF BAHRAIN
Ministry of Education
Busaiteen Intermediate Boys School

مملكة البحرين
وزارة التربية والتعليم
مدرسة البسيتين الإعدادية للبنين
قسم الرياضيات

التاريخ: ٣ مارس ٢٠٢٢م

اسم الطالب:

الصف:

نشاط على العلاقات بين الزوايا

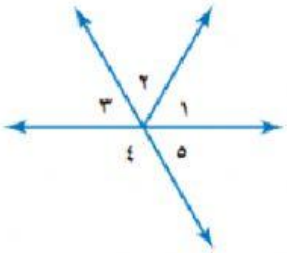

(١) من الشكل المجاور اختر زوجًا من الزوايا المتقابلة بالرأس.

(أ) ∠ ٣ وَ ∠ ٥ (ب) ∠ ٣ وَ ∠ ١ (جـ) ∠ ٤ وَ ∠ ٥

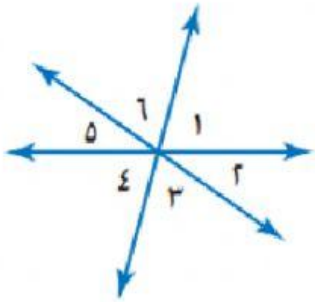

(٢) من الشكل المجاور تصنيف الزاويتين ∠ ٢ و ∠ ٥ هو....

(أ) متجاورتين (ب) متقايلتين بالرأس (جـ) غير ذالك

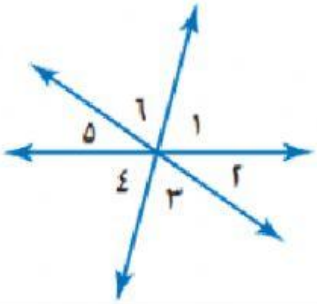

(٣) من الشكل المجاور تصنيف الزاويتين ∠ ٣ و ∠ ٤ هو....

(أ) متجاورتين (ب) متقايلتين بالرأس (جـ) غير ذالك

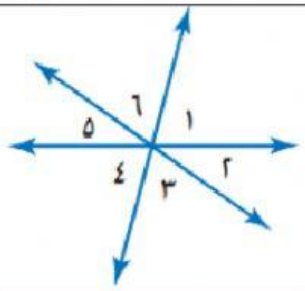

(٤) من الشكل المجاور تصنيف الزاويتين ∠ ٤ و ∠ ٦ هو....

(أ) متجاورتين (ب) متقايلتين بالرأس (جـ) غير ذالك

إعداد : أ. احمد زيدان

LIVEWORKSHEETS