RECTA NUMÉRICA

Nombre: _____ Fecha: _____

Ficha 61. Figuras planas

Pon una "X" en los objetos que tienen forma de **círculo**.



Pon una "X" en los objetos que tienen forma de **óvalo**.



Pon una "X" en los objetos que tienen forma de **triángulo**.

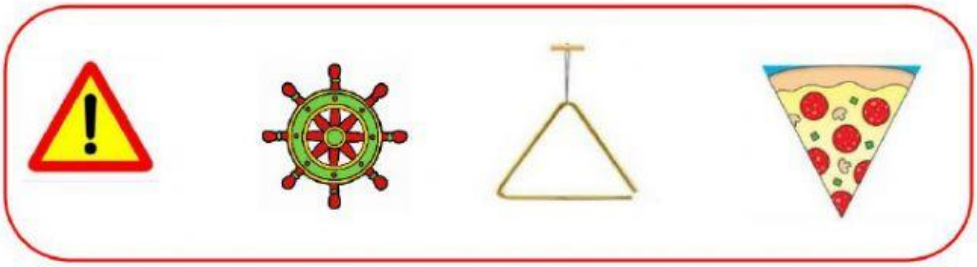

Pon una "X" en los objetos que tienen forma de **cuadrado**.



Pon una "X" en los objetos que tienen forma de **rectángulo**.

Pon una "X" en los objetos que tienen forma de **rombo**.