Họ và tên: .....

Lớp : 1A...

CÂU LẠC BỘ NGÔI NHÀ MƠ ƯỚC

Phiếu số 10

Bài 1: Nối (theo mẫu):

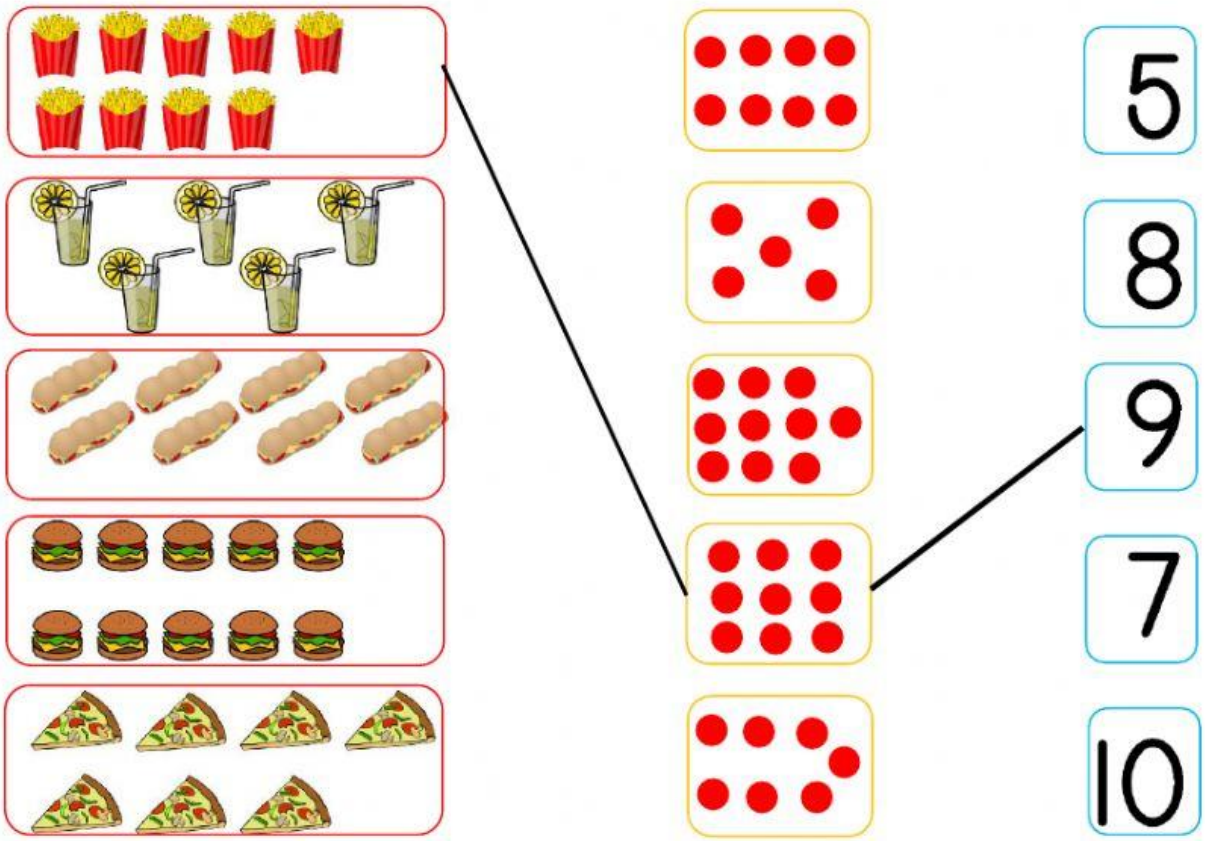

Bài 2: Số ?



LIVEWORKSHEETS

Bài 3: Con hãy đánh dấu √ vào ô trống thích hợp.

a. Chọn đĩa có số bánh ít nhất.

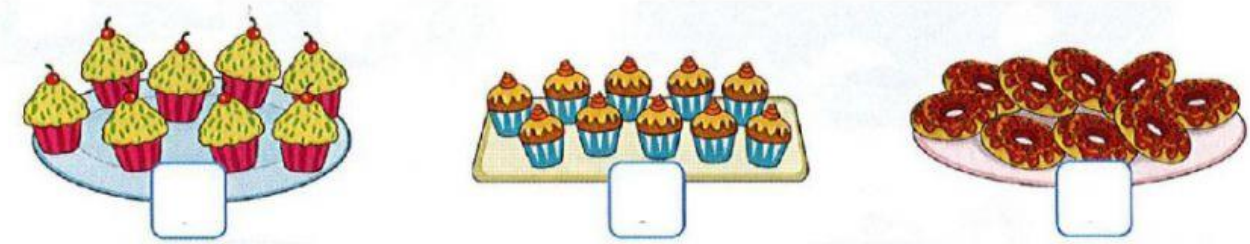

b. Chọn con vật có số lượng nhiều nhất trong tranh.

Bài 4: Con hãy kéo – thả các chấm tròn vào ô trống cho đủ số lượng.



LIVEWORKSHEETS

Bài 5: Con hãy chọn các ô vuông để tạo thành hình chữ L.



Bài 6: Con hãy đánh số 1, 2, 3 vào ô trống theo thứ tự các bước để làm một tấm thiệp nhân ngày 8/3.

LIVEWORKSHEETS