PHIẾU BÀI TẬP CUỐI TUẦN MÔN TOÁN LỚP 1

Mã: 22503

Ngày ..... tháng ..... năm 2022

Họ và tên: ..... Lớp: .....

Nhận xét của giáo viên: .....

Bài 1: Điền số thích hợp vào ô trống:

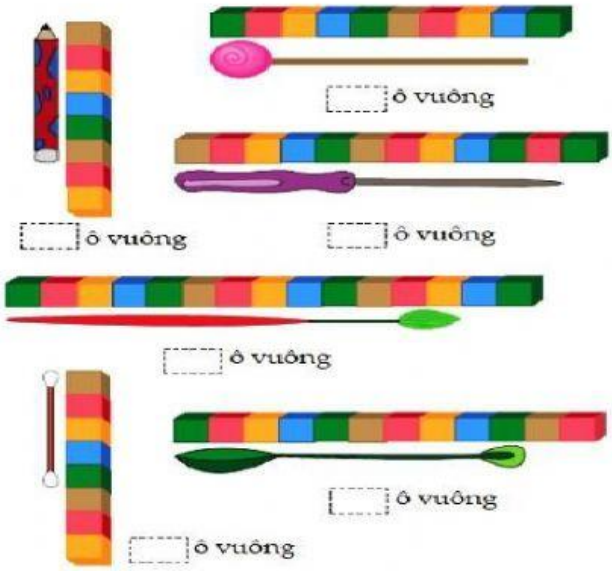

Bài 2: Điền số thích hợp vào ô trống:

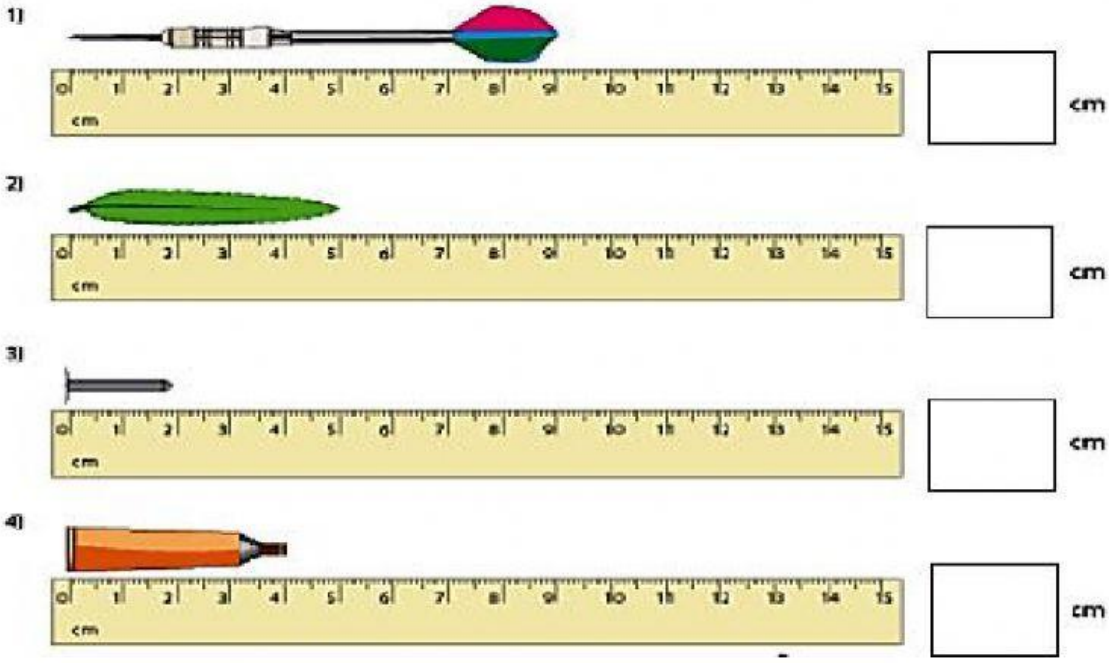

LIVEWORKSHEETS

Bài 3: Viết số thích hợp vào ô trống (theo mẫu)

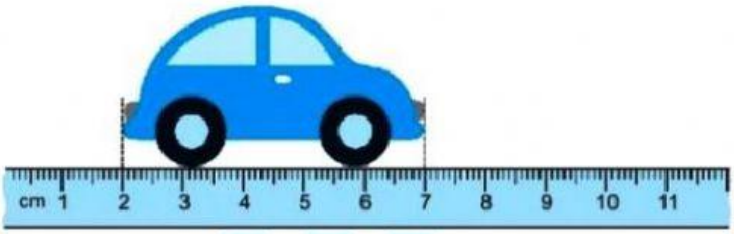

7 – 2 = 5 (cm)

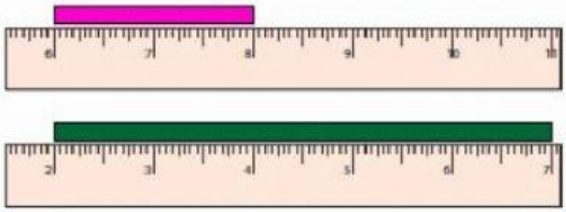

☐ – ☐ = ☐ (cm)

☐ – ☐ = ☐ (cm)

Bài 4: Quan sát mỗi hình vẽ và chọn câu trả lời đúng:

A. Tòa nhà
B. Ngôi nhà

A. Cây
B. Bụi rậm

A. Chai nước
B. Hộp kẹo

A. Hươu cao cổ
B. Hà mã

LIVEWORKSHEETS