EMASI HỌ VÀ TÊN: ..... LỚP: …….. **TRƯỜNG EMASI VẠN PHÚC** TP. Hồ Chí Minh, ngày ….. tháng 03 năm 2022		**KIỂM TRA CUỐI HỌC KÌ 1** **NĂM HỌC: 2021 - 2022** **MÔN: TOÁN - LỚP HAI** (Thời gian làm bài: 35 phút)	
		Giám thị 1	**Giám thị 2**
Điểm	**Nhận xét:**	**Giám khảo 1**	**Giám khảo 2**

……

I. PHẦN TRẮC NGHIỆM (3 điểm): Khoanh tròn vào chữ cái trước đáp án đúng	
Câu 1: **…../1đ**	**a) Hoàn thành sơ đồ tách – gộp sau:** 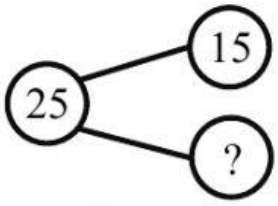 A. 20 B. 10 C. 15 D. 25 **b) Số 79 gồm ……** A. 9 chục và 7 đơn vị B. 9 chục và 9 đơn vị C. 7 chục và 8 đơn vị D. 7 chục và 9 đơn vị
Câu 2: **…../1đ**	**Tính:** **a) 25 cm + 45 cm = ……..** A. 60 cm B. 60 C. 70 cm D. 70 **b) 80 *l* – 30 *l* = ……..** A. 70 *l* B. 60 *l* C. 45 *l* D. 50 *l*
Câu 3: **…../1đ**	**Tính:** **a) 9 + 7 = …….** A. 16 B. 19 C. 15 D. 10 **b) 80 - 40 = …….** A. 60 B. 40 C. 50 D. 70

LIVEWORKSHEETS

II. TỰ LUẬN (7 điểm):

Câu 4:
…../1đ

Đặt tính rồi tính:

45 + 48 **76 - 39**

Câu 5:
……/1đ

Biểu đồ tranh sau đây biểu thị số lượng đồ dùng học tập của nhóm 1.

Bút chì	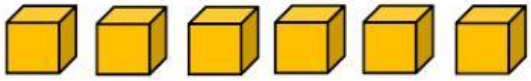
Bút mực	
Thước	

Số?

- Nhóm 1 có ……. bút mực.
- Tổng số bút chì và thước là …… cây.

Câu 6:
…../1đ

Em hãy điền dấu >, <, = vào chỗ trống:

a) 60 ……. 93 – 26

b) 34 + 18 …… 49 + 3

LIVEWORKSHEETS

Câu 7: **…../1đ**	**Gọi tên các thành phần của phép tính sau:** **65 + 16 = 81** …… …… ……
Câu 8: **…../1đ**	**Điền vào chỗ trống thích hợp:** 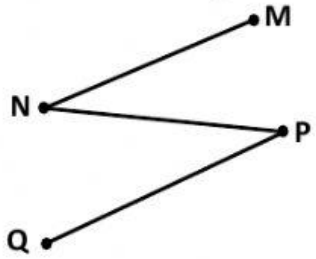 - Đường gấp khúc MNPQ có …… đoạn thẳng. - Đó là các đoạn thẳng: ……..
Câu 9: **……./1đ**	**Chiếc đồng hồ bên dưới chỉ giờ Bình tan học buổi chiều. Biết giờ ăn trưa ở trường Bình cách trước đó 5 giờ. Hỏi trường Bình ăn trưa lúc mấy giờ?** **Trả lời:** Trường Bình ăn trưa lúc ……
Câu 10: **……./ 1đ**	**Trong hoạt động "Thu dọn năm cũ – Sẻ chia yêu thương", lớp 2S quyên góp được 27 quyển sách. Lớp 2A quyên góp được 25 quyển sách. Hỏi cả hai lớp quyên góp được bao nhiêu quyển sách?** **Bài giải**

LIVEWORKSHEETS