العلاقات بين الزوايا



الكفاية	أن تتعرف الطالبة العلاقات بين الزوايا المتكونة من تقاطع مستقيمين .

باستخدام المنقلة قومي بتحديد قياسات الزوايا الاربعة المتكونة من تقاطع المستقيمين في الجدول التالي:

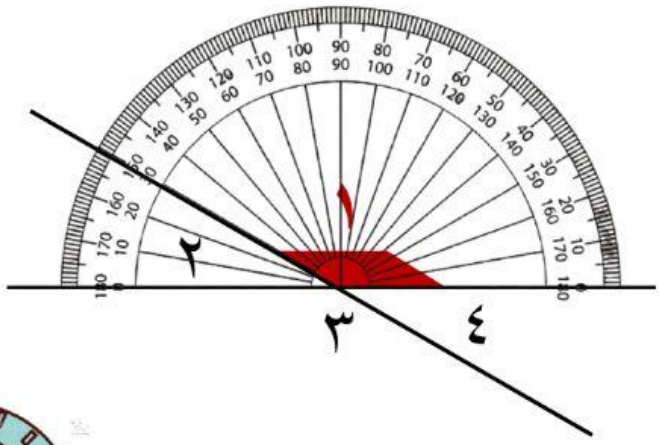

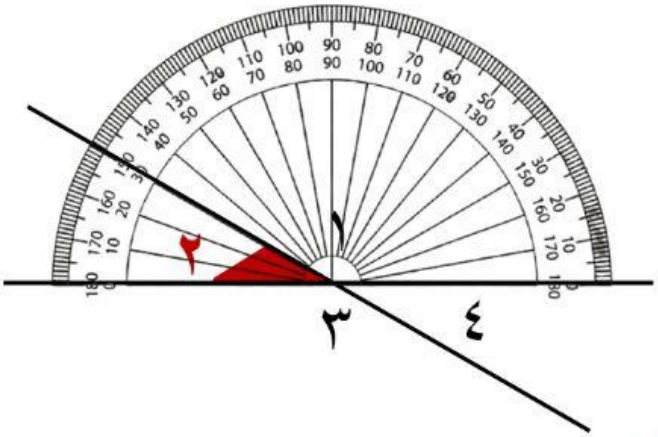

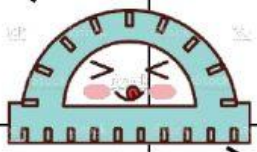

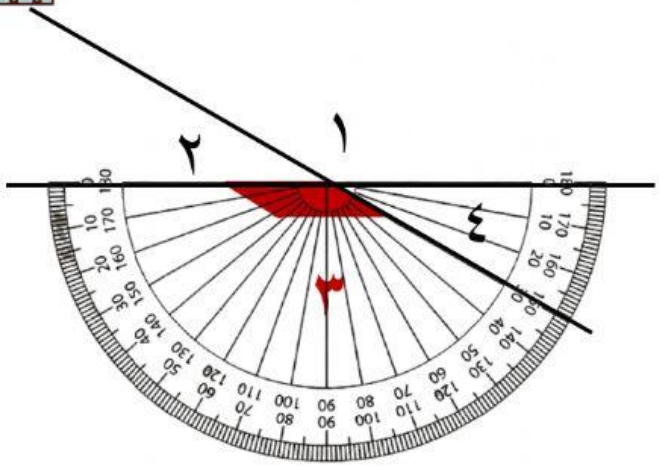

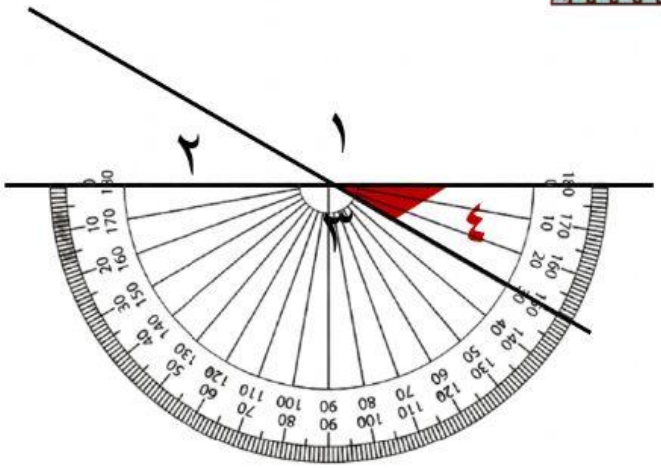

قياس الزاوية ١	قياس الزاوية ٣
قياس الزاوية ٢	قياس الزاوية ٤

ماذا نلاحظ:

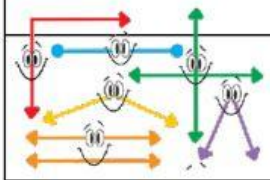

LIVEWORKSHEETS