POLIMER : Pengertian, Jenis Polimer dan Sifat Polimer

Nama :

Kelas :

1. Klik salah satu dari zat-zat berikut ini yang **BUKAN** merupakan contoh polimer !

Kursi Plastik

Botol Plastik

Botol Kaca

Pipa PVC

Gula Aren

2. Perhatikan gambar struktur polimer berikut ini !

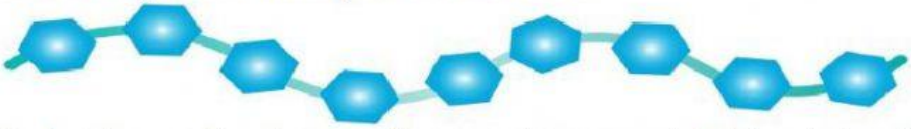

Berdasarkan gambar di atas, polimer tersebut termasuk kedalam jenis polimer.....
(Pilih Salah Satu !)

3. Perhatikan gambar struktur polimer berikut ini !

Berdasarkan gambar di atas, polimer tersebut termasuk kedalam jenis polimer.....
(Pilih Salah Satu !)

4. Perhatikan gambar reaksi pembuatan polimer berikut ini !

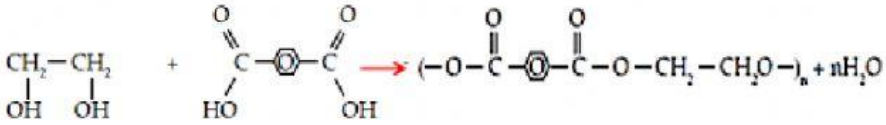

Berdasarkan gambar di atas, polimer tersebut termasuk kedalam jenis polimer.....
(Pilih Salah Satu !)

5. Perhatikan gambar reaksi pembuatan polimer berikut ini !

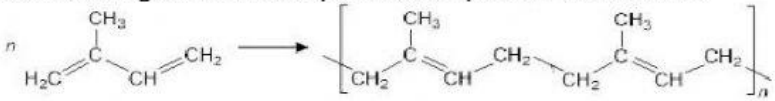

Berdasarkan gambar di atas, polimer tersebut termasuk kedalam jenis polimer.....
(Pilih Salah Satu !)

LIVEWORKSHEETS

POLIMER : Pengertian, Jenis Polimer dan Sifat Polimer

6. Perhatikan struktur polimer berikut !

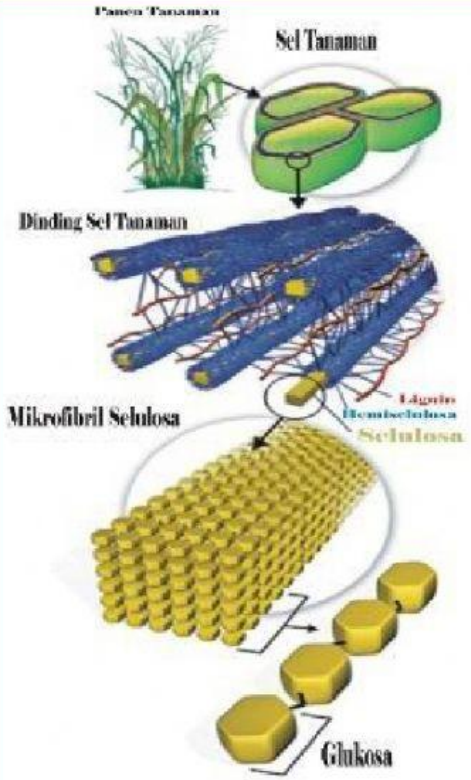

Apa nama polimer gambar disamping ? (Pilih salah satu !)

Apa jenis polimer gambar disamping (Berdasar Sumbernya) ?(Pilih salah satu !)

Apa jenis polimer gambar disamping (Berdasar Monomer Penyusunnya) ? (Pilih salah satu !)

Apa sumber polimer gambar disamping ? (Pilih salah satu !)

7. Perhatikan struktur polimer berikut !

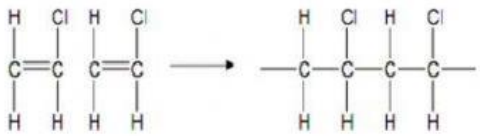

Apa nama polimer gambar

Apa jenis polimer gambar disamping (Berdasar Sumbernya) ?(Pilih salah

Apa jenis polimer gambar disamping (Berdasar Monomer Penyusunnya) ?

Apa contoh polimer gambar disamping ? (Pilih salah satu !)

LIVEWORKSHEETS

POLIMER : Pengertian, Jenis Polimer dan Sifat Polimer

8. Perhatikan gambar reaksi pembuatan polimer berikut ini !

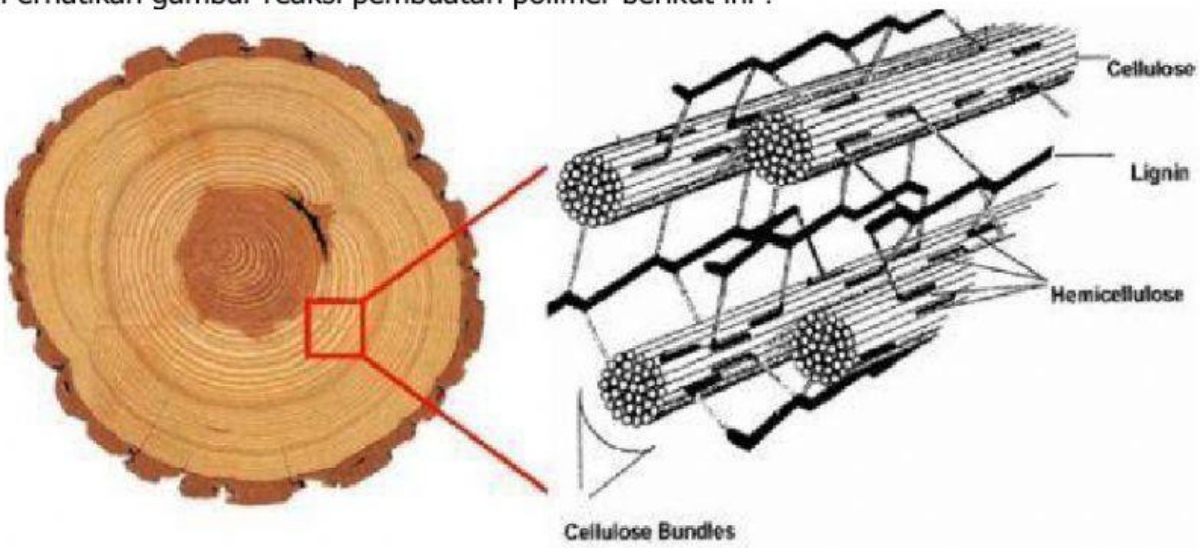

Berdasarkan gambar di atas, polimer tersebut termasuk kedalam jenis polimer.....
(Pilih Salah Satu !)

9. Perhatikan gambar reaksi pembuatan polimer berikut ini !

Berdasarkan gambar di atas, polimer tersebut termasuk kedalam jenis polimer.....
(Pilih Salah Satu !)

LIVEWORKSHEETS

POLIMER : Pengertian, Jenis Polimer dan Sifat Polimer

10. Perhatikan gambar berikut

a. Dari asalnya, termasuk polimer.....
b. Dari reaksinya, termasuk polimer .....
c. Dari sifatnya, termasuk polimer.....
d. Dari monomernya, termasuk polimer.....

11. Pindahkan dengan benar kotak yang berisi nama dan rumus struktur polimer yang berada di kotak bagian atas ke kotak bagian bawah berwarna kuning yang merupakan jenis polimer tersebut !



LIVEWORKSHEETS