Nom:_____Data:_____

Completa correctament amb els signes <, = o >.

52 ◯ 25 46 ◯ 46 3 ◯ 33

5 D i 4 U ◯ 45 60 + 7 ◯ 80 + 7

56 – 42 ◯ 75 – 15 setanta ◯ 60 + 10

Suma 2 i continua la sèrie.

3 → 5 → ☐ → ☐ → ☐ → ☐ → ☐ → ☐

Resta 2 i continua la sèrie.

22 → 20 → ☐ → ☐ → ☐ → ☐ → ☐ → ☐

Encercla la xifra de les unitats de cada nombre i completa.

nombres parells	nombres imparells
16 28 42	21 43 99
4 50	5 87

Els nombres que acaben en 0, 2, 4, 6 i 8 són

.....

.....

.....

Els nombres que acaben en 1, 3, 5, 7 i 9 són

.....

.....

.....

Observa els autobusos que paren prop de la casa de Jèssica i respon.



- Si a la seua escola tenen parada els autobusos amb nombre parell, quins autobusos pot agafar?



- Si per a tornar a casa agafa els de nombre imparell, quins autobusos la poden portar?