Thử thách số 1: Trong bức tranh có:

a) ☐ đèn lồng dạng khối trụ. b) ☐ đèn lồng dạng khối cầu.

LIVEWORKSHEETS

Thử thách số 2: Chọn hình thích hợp đặt vào dấu “?”.

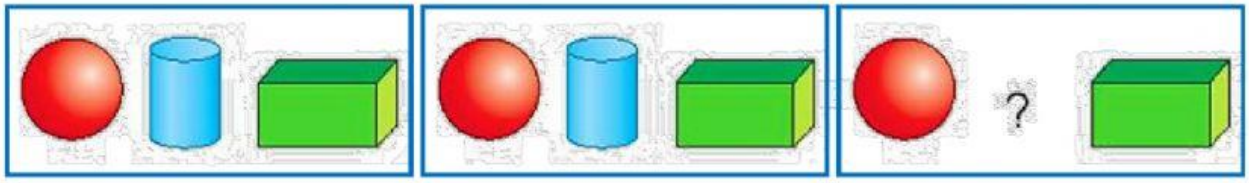

A. 

B. 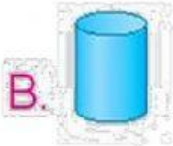

C. 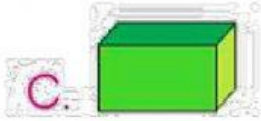

LIVEWORKSHEETS

Thử thách số 3:

Bạn khối cầu sẽ rơi vào khoang ghi phép tính có kết quả lớn nhất. Khoang đó có dạng hình khối gì ?

A. Khối trụ

B. Khối cầu

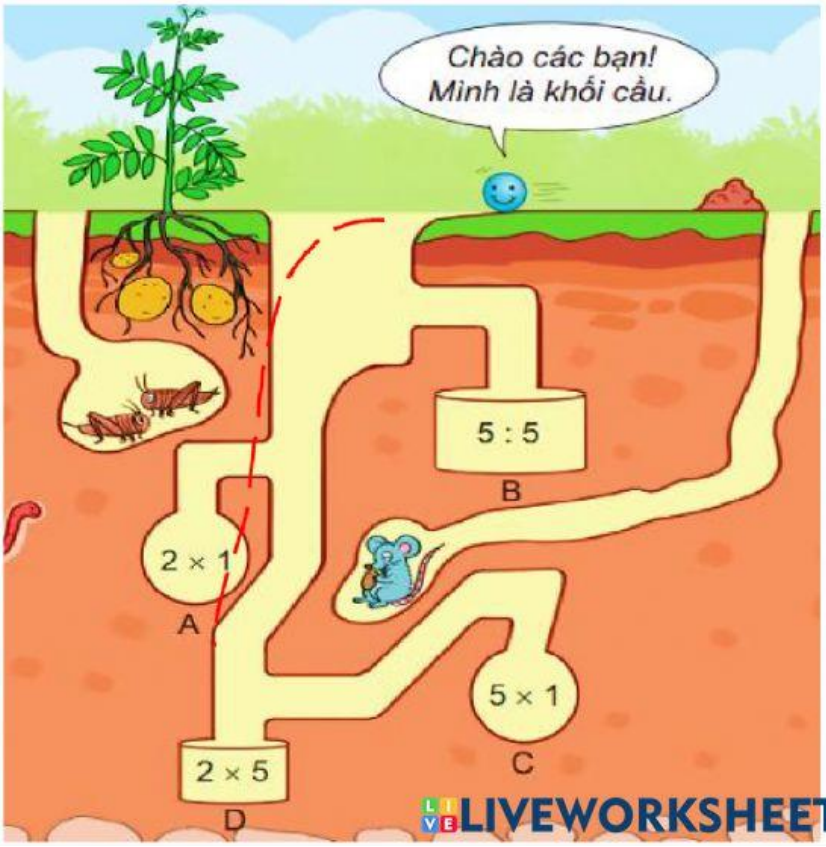

LIVEWORKSHEETS

Thử thách số 4: Nếu xếp các hộp có dạng khối trụ theo cách dưới đây thì hình D sẽ cần bao nhiêu hộp ?

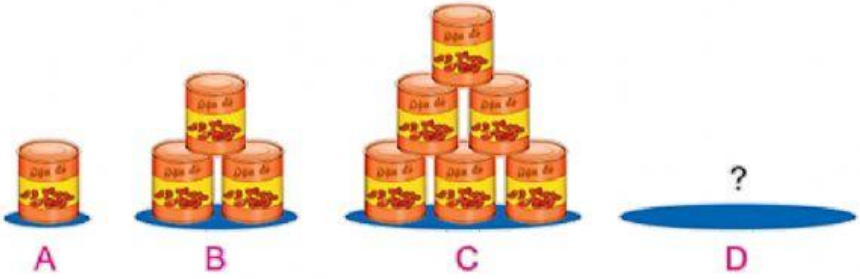

Trả lời: Hình D cần ☐ hộp.

LIVEWORKSHEETS