Martes 22 de febrero del 2021

Ubico fracciones en la recta numérica.

Intención didáctica: Reconocer la relación que guardan entre sí las diversas representaciones de una fracción y utilizarlas para abreviar pasos.

Para ubicar una fracción en una recta, primero tenemos que observar el **denominador** para saber en cuántas partes vamos a dividir la recta. Por su parte, el **numerador** indica dónde ubicar la fracción.

Actividad 1 en el cuaderno cuadriculado:

- **Usando el procedimiento anterior, resuelve los ejercicios que se te piden.**

Dibuja la recta en tu cuaderno y divídela en partes iguales según el denominador.

$$\frac{5}{7}$$

Dibuja de nuevo la recta, ahora señala el punto que indica el numerador.



$$\frac{5}{7}$$

Actividad 2: **Escribe el nombre de las siguientes fracciones, luego ubicalas en la recta numérica.**

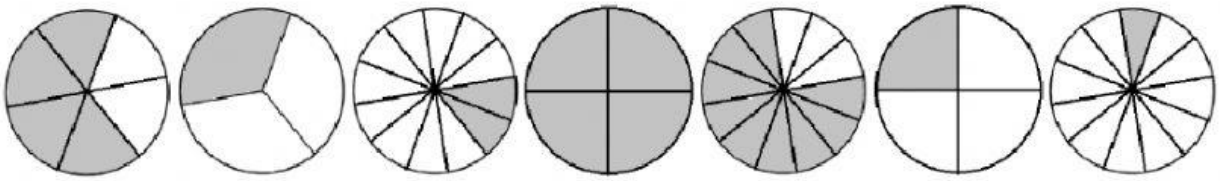

a) $\frac{4}{6}$ b) ___ c) ___ d) ___ e) ___ f) ___ g) ___

Nota: Recuerda que es la fracción en la que está dividido y lo que se coloreó, no estamos sacando equivalencias.

LIVEWORKSHEETS

Instrucciones: Arrastra y suelta la fracción al lugar de la recta que le corresponde.

$\frac{4}{6}$ $\frac{2}{12}$ $\frac{1}{12}$ $\frac{4}{4}$ $\frac{1}{4}$ $\frac{1}{3}$ $\frac{9}{12}$

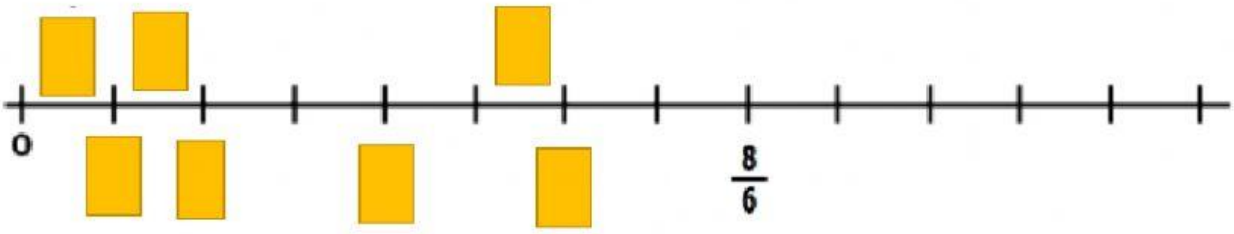

LIVEWORKSHEETS