ESCUELA PARTICULAR CLARETIANA
"LA PRESENTACIÓN"
Leonidas Plaza 2700 y Bolivia; 3873295
Guayaquil – Ecuador

Escuela Claretiana
La Presentación

Una Institución al Servicio de la Vida y la Dignidad del Ser Humano

ESCUELA BÁSICA CLARETIANA "LA PRESENTACIÓN"

EXAMEN II QUIMESTRE

Año Lectivo 2021-2022

Calificación:

Estudiante: ....
Grado de E.G.B./Curso:
Figura Profesional: ……
Asignatura: **Fecha…….**
Profesor: Lic. Keyla Cruz Flores.

Indicaciones Generales:

- *Realice su Evaluación del Primer Parcial del Segundo Quimestre con orden y seleccione la respuesta correcta.*
- *Lea con atención las cuestiones, piense y conteste según instrucciones.*
- *Cualquier intento de deshonestidad académica durante la evaluación, equivale a la anulación De la nota (Art. 223 R-LOEI)*
- *La Evaluación es calificada sobre 10 puntos.*
- *No haga tachones, ni utilice líquido corrector si lo hace la respuesta quedará eliminada.*
- *Utilice pluma de color azul o negra.*

1. **Completa los espacios con la conversión correspondiente.(*1.5(puntos)***

a) 100 km= ____ hm
b) 3 hm= ____ mm
c) 73,4m= ____ cm
d) 900 dm= ____ dam
e) 75 mm= ____ m
f) 4 hm= ____ km

2. **Selecciona los ítems que son verdaderos (1punto)**

a) 72 es divisibles para 9
b) 6 es divisor de 36
c) 40 es divisible para 5
d) 96 es divisible para 2 y 6

3. **Calcula el perímetro y área de los siguientes polígonos. (1punto)**

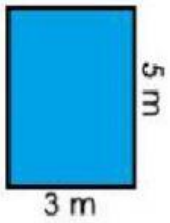

Perímetro: ____ m

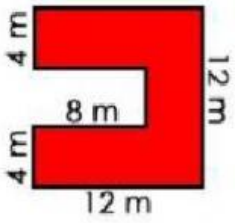

Perímetro: ____ m

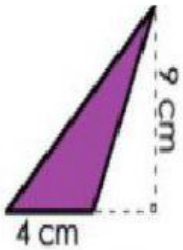

Área: ____ cm^2

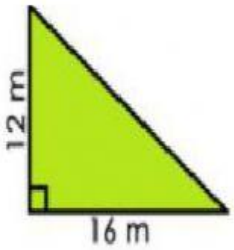

Área: ____ m^2

LIVEWORKSHEETS

4. **Completa la tabla calculando la frecuencia relativa y absoluta. (2puntos)**

Visita A lugares Turísticos.	Frecuencia absoluta	Frecuencia relativa			Frecuencia Acumulada
		Fracción	Decimal	Porcentaje	
Parque Histórico	5				
Pantanal	4				
Cerro Santa Ana	8				
Malecón	2				
Parque Santay	3				

5. Completa la tabla de potenciación. (1punto)

POTENCIACIÓN	BASE	EXPONENTE	PRODUCTO	POTENCIA
6^3				
5^2				
8^5				
2^4				

6. Resuelve el siguiente problema fraccionario. (1punto)

1. Unai compró una pizza y la partió e 8 partes iguales.
Se comió 5 partes y el resto lo guardó.

¿Qué fracción de pizza se comió?

¿Qué fracción guardó?

LIVEWORKSHEETS

7. Observa los datos obtenidos de las calificaciones estudiantiles y completa según lo solicitado. (1punto)

Calificaciones	Frecuencia absoluta
10	4
11	1
12	3
13	4
14	1
15	5
16	2

MEDIA ARITMÉTICA	
MEDIANA	
MODA	

8. Asocia las columnas según sea correcto. (1.5puntos)

$\sqrt{400} =$	Raíz cúbica de sesenta y cuatro	4
$\sqrt[3]{125} =$	Raíz cuadrada de ciento cuarenta y cuatro	12
$\sqrt{144} =$	Raíz cuadrada de cien	20
$\sqrt[3]{64} =$	Raíz cuadrada de cuatrocientos	10
$\sqrt{100} =$	Raíz cúbica de ciento veinticinco	5

LIC. Keyla Cruz Flores **Docente**	**MSC. Marlene Muñoz** **Directora**	**Estudiante**

LIVEWORKSHEETS