PRUEBA 5 DE 2º: ¡UN NIÑO QUE VUELA!

Nombre:_____

1. ¿Cuántas hojas hay?



C	D	U

2. Colorea en cada caso el producto que se indica y calcula el resultado.

3 x 5

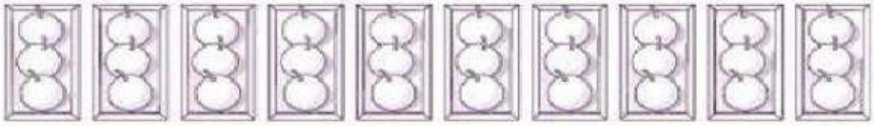

4 x 7



3. Calcula la tercera parte de la siguiente cantidad.

La tercera parte de _____ es _____ .

4. Resuelve los siguientes productos.

3 x 3 =	4 x 2 =	4 x 80 =	3 x 9 =
3 x 5 =	4 x 4 =	3 x 7 =	4 x 50 =
4 x 60 =	3 x 70=	4 x 9 =	3 x 6 =

LIVEWORKSHEETS

5. Calcula la cuarta parte de cada cantidad.

6. Pulsa en el recipiente dondecabe más.

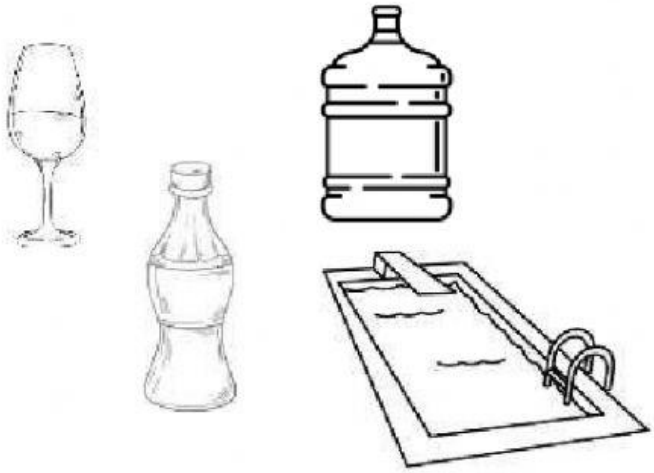

7. ¿Qué capacidad forman cada grupo de recipientes?



_____ _____

7. UNE CADA TRIÁNGULO CON SU NOMBRE.

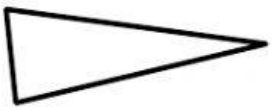



ISÓSCELES ESCALENO EQUILÁTERO

8. Resuelve las siguientes operaciones.

244 x 3 = ☐

175 x 4 = ☐

585 + 296 = ☐

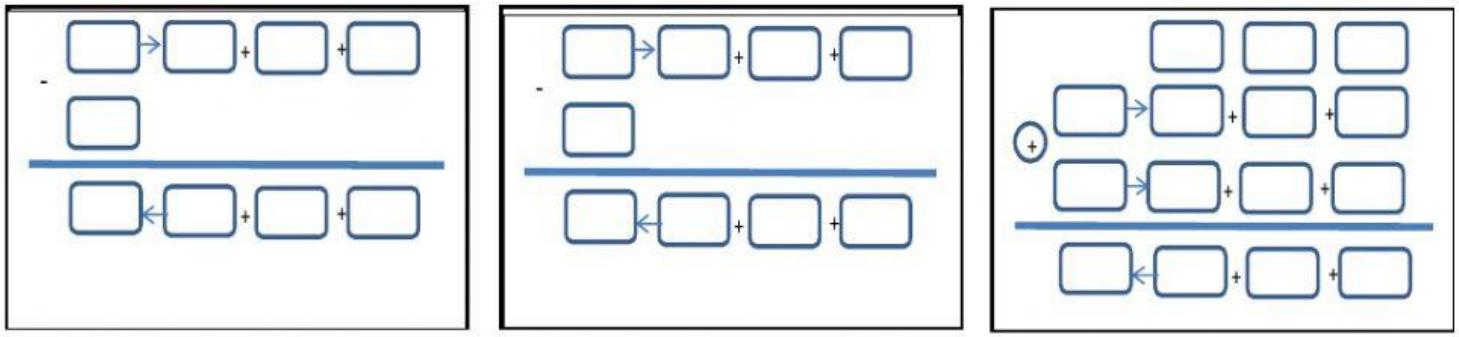

LIVEWORKSHEETS