LINGKARAN

NAMA :

KELAS :

Untuk soal No: 1 – 4,pasangkan antara ruas kiri dan ruas kanan dengan cara menarik panah dari kiri ke kanan,berdasarkan gambar lingkaran dibawah ini.

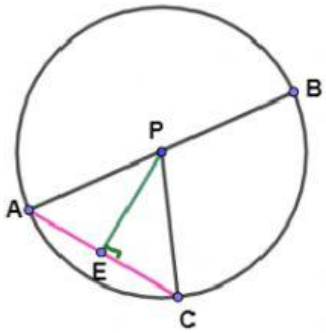

1. Tali busur terpanjang/diameter	1	AC
2. Jari-jari	2	PE
3. Tali Busur	3	AB
4. Apotema	4	PC

5. Gambar bagian yang diarsir pada lingkaran ini disebut …

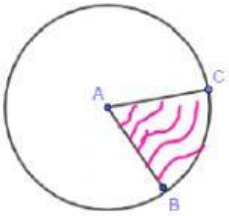

a. tembereng
b. busur
c. juring
d. apotema

Untuk soal No: 6 – 10,pasangkan antara ruas kiri dan ruas kanan dengan cara menggeser (drag) dari jawaban yang tersedia ke setiap soal yang sesuai.

SOAL		Pilihan Jawaban
6. Keliling lingkaran dengan diameter 21 cm adalah … cm		286
7. Luas lingkaran dengan diameter 20 cm adalah … cm^2		45,7
8. Luas daerah yang diarsir dari gambar ini … cm^2 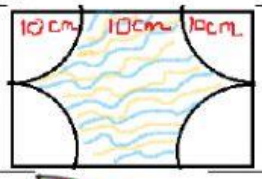		75,5
9.Luas daerah yang diarsir pada gambar ini … cm^2. 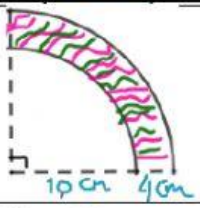		66
10.Keliling daerah yang diarsir pada gambar ini nomor 9 … cm.		314

LIVEWORKSHEETS

LIVEWORKSHEETS