# LKPD KELAS 1 TEMA 7 SUBTEMA 3

# PEMBELAJARAN 3

NAMA :.....

NO.ABSEN :.....

KERJAKAN SESUAI PETUNJUK YA !

Di bawah ini ada gambar tanaman dan buahnya.
Cobalah memasangkan tanaman dan buah yang dihasilkan dengan cara menarik garis.

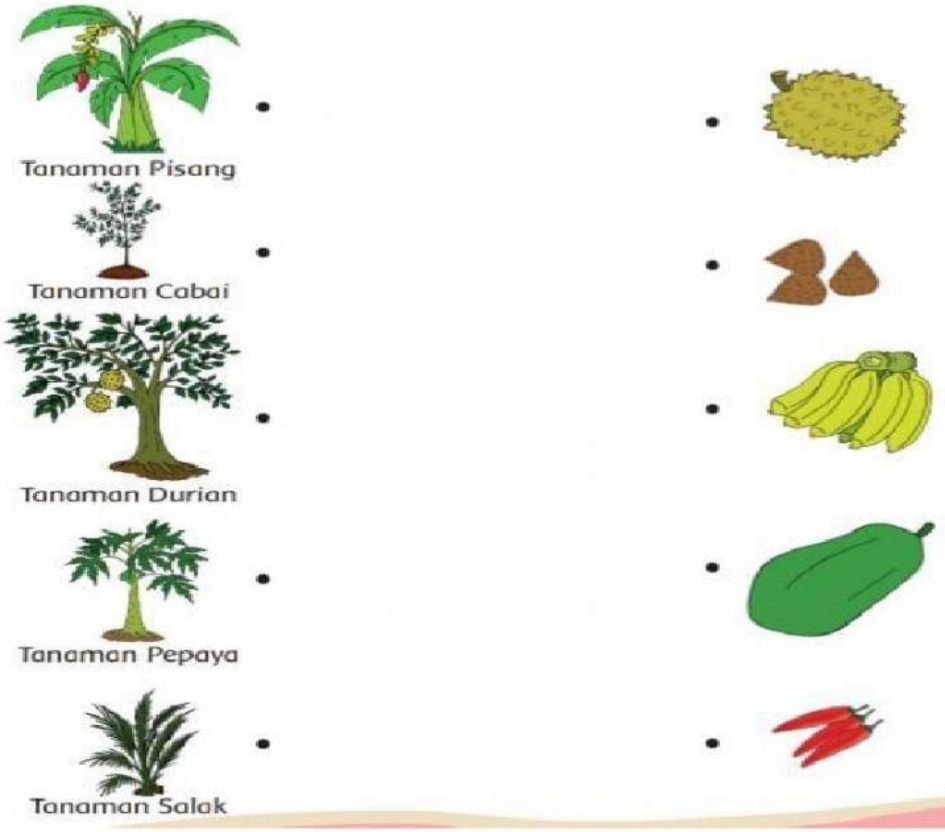


LIVEWORKSHEETS

Kita dapat menemukan berbagai macam buah di pasar.

Mari kita mengenal berbagai macam buah sambil berlatih menghitung.

Perhatikan gambar di bawah.

**Hitung banyaknya buah sesuai gambar.**

1.

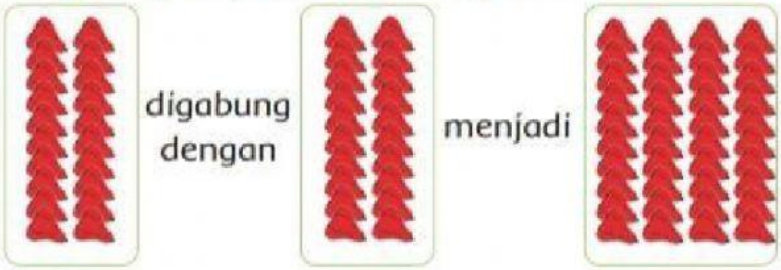


... + ... = ...

Banyaknya buah jambu sebanyak ... buah

2.

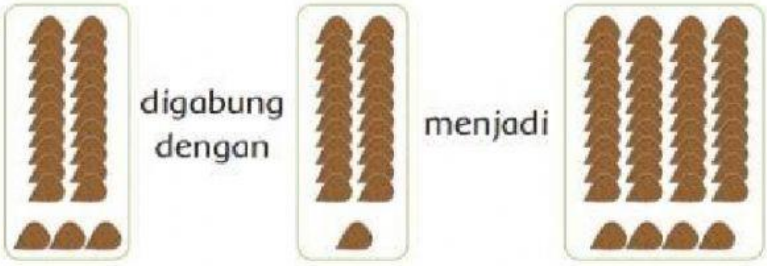


... + ... = ...

Banyaknya buah salak sebanyak ... buah.

3.

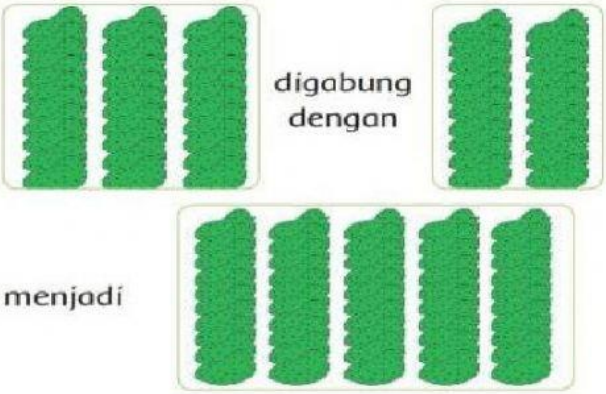


... + ... = ...

Banyaknya buah sirsak sebanyak ... buah.

LIVEWORKSHEETS

4.

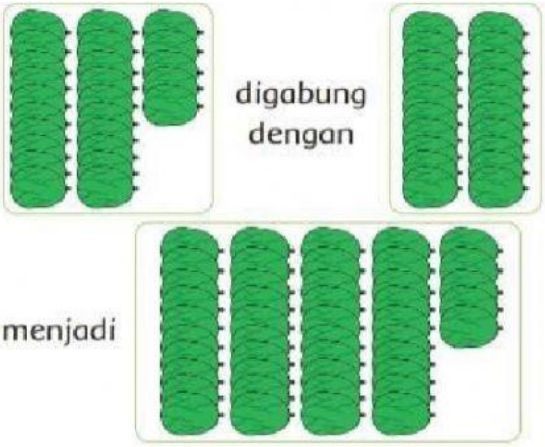


... + ... = ...

Banyaknya buah kedongdong sebanyak ... buah.

5.

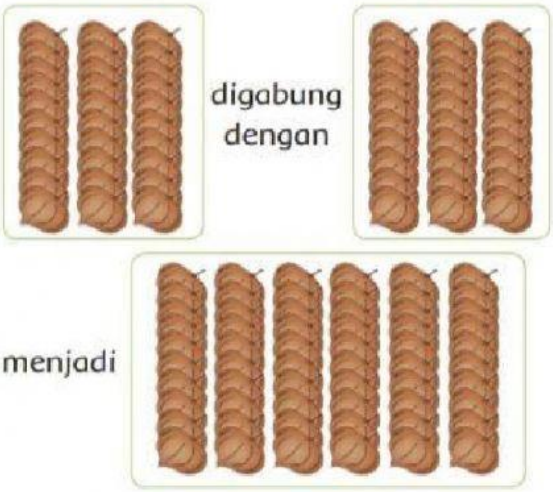


... + ... = ...

Banyaknya buah bengkoang sebanyak ... buah.

SELAMAT MENGERJAKAN ANAK – ANAK.SAMPAI JUMPA LAGI.

LIVEWORKSHEETS