9 **Із кубиків з ребром 1 см складені прямокутні паралелепіпеди. Знайди їх об'єми**

а)



б)



Розв'яжи рівняння у робочому зошиті. Вкажи корені.

10 **Розв'яжи рівняння з коментуванням:**

а) $14 - 81 : x = 5$; X =

б) $(y - 3) : 5 = 30$; y=

в) $(m \cdot 4 + 6) : 9 = 2$; m =

г) $48 : t + 7 = 15$. t =

Розгадай кросворд.

По вертикалі: 1. Прилад для вимірювання маси. 2. Результат ділення. 3. Прилад для вимірювання часу. 4. Результат віднімання. 5. Частина прямої.



По горизонталі: 6. Рівносторонній прямокутник. 7. Результат додавання. 8. Число, при підставлянні якого у рівняння одержуємо правильну рівність. 9. Одиниця вимірювання часу. 10. Речення, про яке можна сказати, правильне воно чи неправильне. 11. Запис, що складається з чисел, букв та знаків арифметичних дій. 12. Висловлювання, що містить знак "=".

LIVEWORKSHEETS