Suatu persegi panjang berukuran panjang 8 cm dan lebar 9 cm. Di antara persegi berikut yang lebih luas daripada persegi panjang tersebut adalah ....

a. 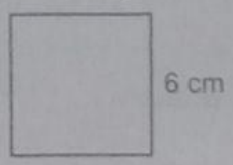

c. 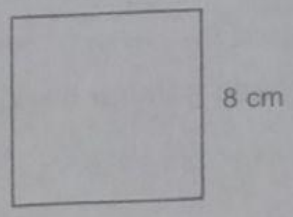

b. 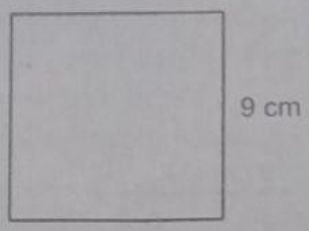

d. 

Fitri memiliki 2 buah bingkai foto berbentuk persegi panjang yang sama ukurannya. Jika panjang bingkai 17 cm dan lebar 12 cm, maka luas seluruh bingkai foto Fitri adalah ....

a. 350 cm^2
b. 408 cm^2
c. 450 cm^2
d. 600 cm^2

Sebuah aula di sekolah Andra panjangnya 18 m dan lebarnya 10 m. Luas aula tersebut adalah ....

a. 134 m^2
b. 144 m^2
c. 162 m^2
d. 180 m^2

Paman Heru memiliki sebidang tanah yang berbentuk persegi dengan keliling 84 m. Luas tanah Paman Heru adalah ....

a. 211 m^2
b. 351 m^2
c. 441 m^2
d. 481 m^2

Yosef mempunyai kotak pensil berbentuk persegi panjang dengan luas 85 cm^2. Jika kotak pensil tersebut lebarnya 5 cm, maka ukuran panjangnya adalah ....

a. 15 cm
b. 17 cm
c. 20 cm
d. 23 cm

Diketahui satu persegi luasnya sama dengan 2 kali luas segitiga. Jika sisi persegi tersebut 16 cm, luas 1 segitiga adalah ....

a. 128 cm^2
b. 148 cm^2
c. 160 cm^2
d. 184 cm^2

Permukaan meja makan Bu Indri berbentuk persegi panjang dengan panjang 14 dm dan lebar 9 dm. Luas meja tersebut adalah ....

a. 96 dm^2
b. 116 dm^2
c. 126 dm^2
d. 158 dm^2

Keliling segitiga ABC pada gambar di samping adalah ....

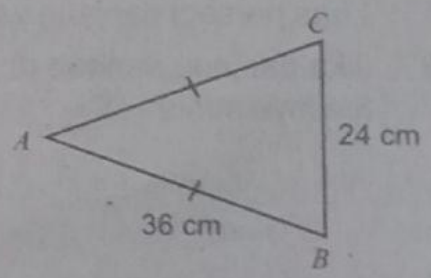

a. 60 cm
b. 84 cm
c. 88 cm
d. 96 cm

LIVEWORKSHEETS