LKPD

LEMBAR KERJA PESERTA DIDIK

NAMA :

KELAs :

NOMOR ABSEN :

TEMA 6 : ENERGI DAN PERUBAHANNYA

SUB TEMA 2 : PERUBAHAN ENERGI

KOMPETENSI DASAR

BAHASA INDONESIA

3.2 Menggali informasi tentang sumber dan bentuk energy yang disajikan dalam bentuk lisan, tulis, visual, dan/atau eksplorasi lingkungan.

MATEMATIKA
3.6 Menjelaskan dan menentukan lama waktu suatu kejadian berlangsung.

PPKn
3.2 Mengidentifikasi kewajiban dan hak sebagai anggota keluarga dan warga sekolah.

SBdP
3.2 Mengetahui bentuk dan variasi pola irama dalam lagu.

rawpixel

LIVEWORKSHEETS

Menyimak Video pembelajaran

Silakan simak dengan cara klik video berikut :

1. **Ayo menulis,** tulislah informasi penting yang didapatkan setelah menyimak video pembelajaran di atas !

LIVEWORKSHEETS

2. Perhatikan gambar dan bacalah pernyataan di bawahnya ! kasilah tanda centang pada kotak benar jika gambar dengan pernyataan sesui dan kasi centang pada kotak salah jika gambar dan pernyataan tidak sesuaidengan pernyataan perubahan energi di bawahnya!

Energi Listrik Menjadi Energi Panas

Benar **Salah**

Energi Listrik Menjadi Energi Gerak

Benar **Salah**

Energi Listrik Menjadi Energi Gerak

Benar **Salah**

Energi Listrik Menjadi Energi bunyi

Benar **Salah**

Energi Kimia Menjadi Energi Cahaya

Benar **Salah**

Energi Kimia Menjadi Energi Cahaya

Benar **Salah**

LIVEWORKSHEETS

3. Tariklah garis dari pertanyaan ke jawaban yang tepat !

1	Made mulai belajar pukul 07.30 dan selesai pada pukul 09.30. Berapa lama Made belajar?	Pukul 07:00
2	Wayan berangkat sekolah pada pukul 06.00 dan pulang kembali ke rumah pukul 12.00. Berapa lam Wayan sekolah?	2 Jam
3	Ketut mengerjakan PR Matematika pukul 13.00. PR Ketut dikerjakan selama 90 menit. Pukul berapa Ketut selesai mengerjakan PR?	Pukul 14:30
4	Ibu pulang dari pasar pukul 08.00. Di pasar ibu berbelanja selama 60 menit. Pukul berapa ibu berangkat ke pasar?	2 Jam
5	Ayah menggunakan komputer selama 120 menit. Berapa jamkah ayah menggunakan komputer?	6 Jam

LIVEWORKSHEETS

4. **Letakkanlah satuan waktu yang sesuai pada gambar dibawah ini!** Dengan cara menarik satuan waktu yang tersedia dan meletakkan di bawah gambar yang sesuai !



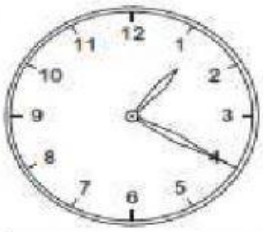

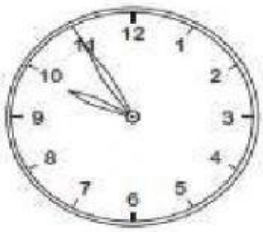

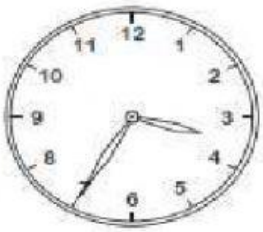

Pukul 03 : 35	Pukul 12 : 35
Pukul 01 : 20	Pukul 09 : 55
Pukul 07 : 30	Pukul 09 : 25

LIVEWORKSHEETS

5. **Letakkanlah Gambar yang sesuai dengan pernyataan dibawah ini!** Dengan cara menarik gambar yang tersedia dan meletakkan di bawah pernyataan yang sesuai !

Kewajban Penggunaan Energi yang tidak baik di Lakukan

Kewajban Penggunaan Energi yang baik di Lakukan



LIVEWORKSHEETS