الصف التاسع

تمارين على تطابق المثلثات - ورقة عمل رقم 4

المعيار : 9.7.2 : يعيّن المثلثات المتطابقة ، ويستعمل خصائص التطابق لإيجاد أطوال أضلاع وقياسات زوايا مجهولة .

9.7.3 : يثبت تطابق مثلثين ليولد مزيدًا من المعرفة والنظريات عن المثلثات بما فيها المثلثات المتداخلة .

في كل شكلٍ أدناه لديك مثلثان متطابقان ، احسب قيمة المجهول في كل شكل :

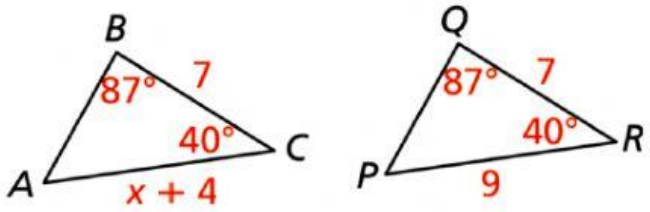	_____	1
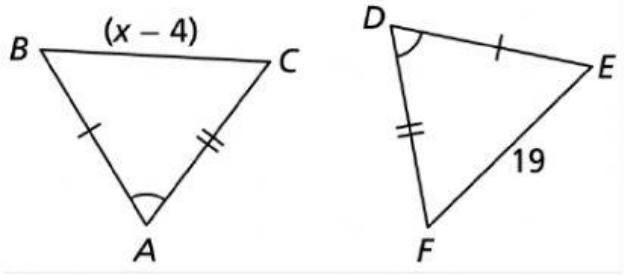	_____	2
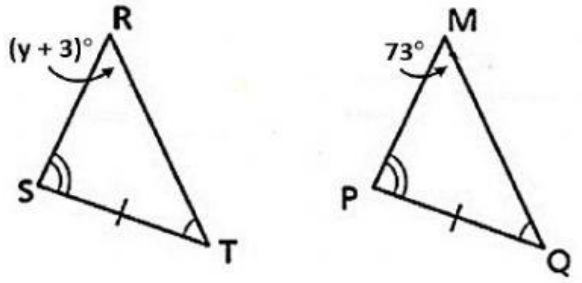	_____	3
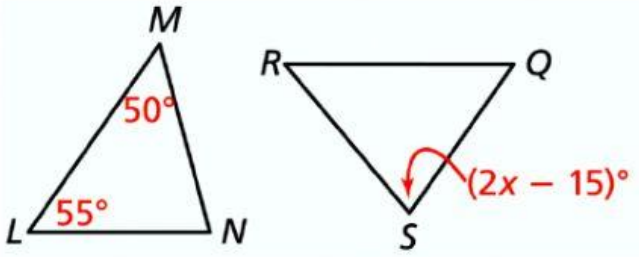	_____	4

LIVEWORKSHEETS