Họ tên: _____ Ngày ..... tháng ..... năm 20....

CÙNG EM HỌC TOÁN

Phép cộng trong phạm vi 5

1 Đếm và viết kết quả:

	+		
	+		
	+		

2 Đếm hình, viết đúng số lượng và kết quả:

	+		=	☐
☐	+	☐	=	☐
	+		=	☐
☐	+	☐	=	☐

3 Vẽ thêm cho đủ số hình:

____	+		=	5
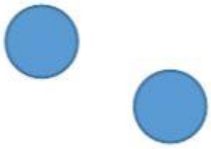	+	____	=	3

LIVEWORKSHEETS