(8-2) التمثيلات البيانية للمعادلات القطبية

نواتج التعلم

1- التمثيل البياني للمعادلات القطبية.

تمثيل المعادلات القطبية بتحديد النقاط

4.

تحقق من فهمك

1- اختر المعادلة التي تمثل المنحنى المرسوم

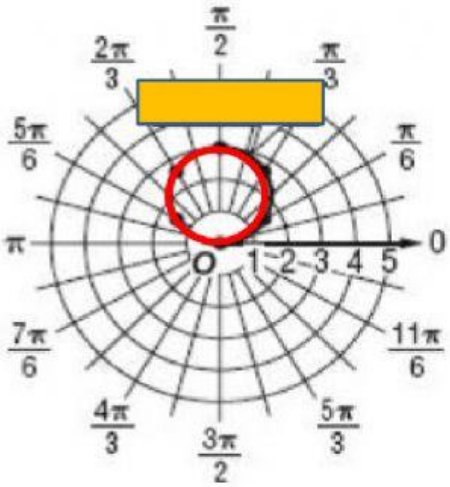

A) $r = 3 \sin \theta$

B) $r = 3 \cos \theta$

C) $r = \sec \theta$

D) $r = -3 \sin \theta$

LIVEWORKSHEETS

نواتج التعلم

1- التمثيل البياني للمعادلات القطبية.

(8-2) التمثيلات البيانية للمعادلات القطبية

تمثيل المعادلات القطبية بتحديد النقاط

تحقق من فهمك

3- اختر المعادلة التي تمثل المنحنى المرسوم

5.

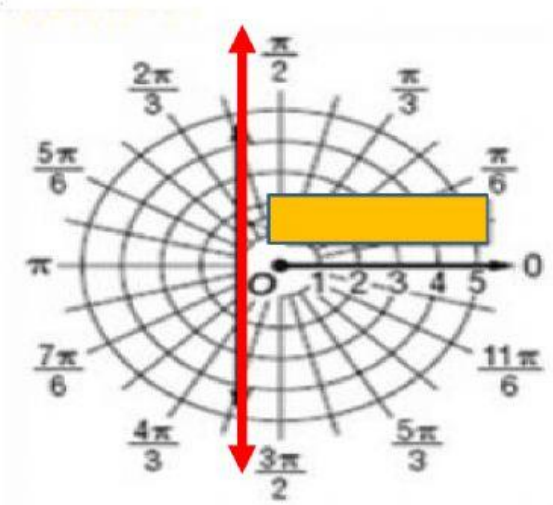

A $r = \sec\theta$

B $r = -\cos\theta$

C $r = -\sec\theta$

D $r = \csc\theta$

LIVEWORKSHEETS

نواتج التعلم

1- التمثيل البياني للمعادلات القطبية.

(8-2) التمثيلات البيانية للمعادلات القطبية

تمثيل المعادلات القطبية بتحديد النقاط

7.

تحقق من فهمك

2- اختر المعادلة التي تمثل المنحنى المرسوم

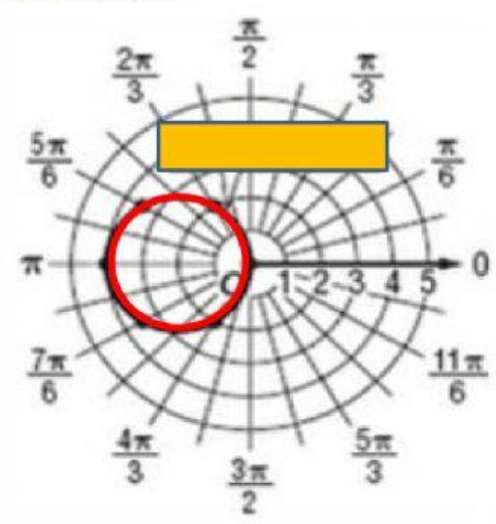

A. $r = 4 \sin \theta$

B. $r = -4 \cos \theta$

C. $r = - \csc \theta$

D. $r = -4 \sin \theta$

LIVEWORKSHEETS

نواتج التعلم

1- التمثيل البياني للمعادلات القطبية.

(8-2) التمثيلات البيانية للمعادلات القطبية

تمثيل المعادلات القطبية بتحديد النقاط

8.

تحقق من فهمك

2- اختر المعادلة التي تمثل المنحنى المرسوم

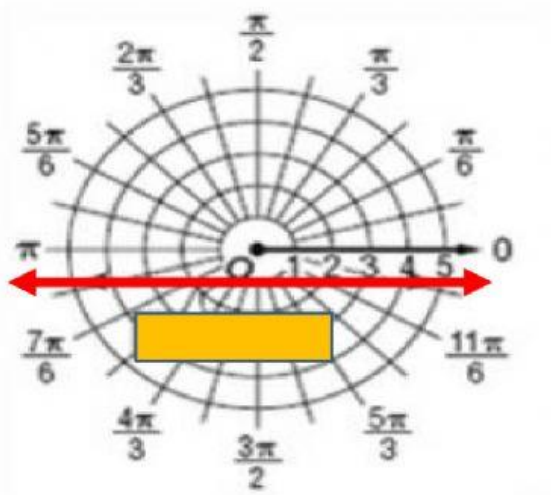

A $r = -\sin\theta$

B $r = \sec\theta$

C $r = -\csc\theta$

D $r = -\sec\theta$

LIVEWORKSHEETS