Examen UD1 CCSS: "El Sistema Solar. La Tierra"

Nombre y apellidos:

Fecha: 11/02/2022.

Curso: 5ºA

Elige la opción correcta:

1. El universo surgió a partir de:

A) El choque de dos planetas.

B) El Big Bang.

C) La unión de varias galaxias.

2. Las estrellas son:

A) Grupo de millones de estrellas y nebulosas.

B) Objetos de diferentes tamaños que giran alrededor de los planetas.

C) Son esferas de gas que desprenden luz y calor.

3. ¿Cómo se llama la estrella del sistema solar?

A) La Luna.

B) Sol.

C) Haley.

4. El satélite de la Tierra se llama:

A) Luna

B) Sol

C) Saturno

5. Nuestro planeta hace dos tipos de movimiento:

A) De rotación y giro.

B) De traslación y giro.

C) De rotación y traslación

LIVEWORKSHEETS

6. En el movimiento de traslación la Tierra tarda en completar su movimiento:

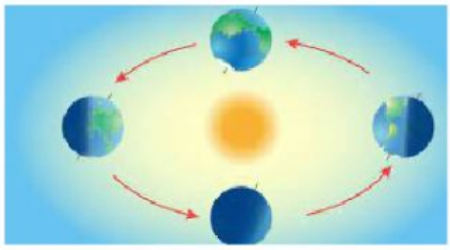

A) 365 días y 6 horas

B) 24 horas.

C) 365 días y 24 horas.

7. Del movimiento de rotación depende:

A) Las estaciones

B) La alternancia entre el día y la noche

C) Los cambios de temperatura.

8. La rotación de la Tierra consiste en:

A) El giro de la Tierra alrededor del sol.

B) El giro de la Tierra sobre si misma.

C) A y B son correctas.

9. La Tierra gira alrededor del sol…

A) Siguiendo una órbita circular, ese movimiento se llama traslación.

B) Siguiendo una órbita elíptica, ese movimiento se llama traslación.

C) A y B son falsas.

9. Las capas de la Tierra son:

A) La atmósfera, hidrosfera y geosfera.

B) La certeza, el manto y el núcleo.

C) La atmósfera y el núcleo.

10. Las capas de la geosfera son:

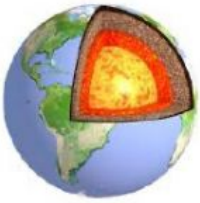

A) Corteza, manto y núcleo.

B) Hidrosfera, Atmósfera y geosfera.

C) Manto, núcleo y capa superior.

LIVEWORKSHEETS

11. La Luna tiene un movimiento de traslación que dura:

A) 24 horas.

B) 365 días.

C) 29 días.

12. Tenemos dos tipos de representación de la Tierra:

A) El globo terráqueo y el planisferio.

B) Las fotografías.

C) Mapas en relieve.

13. ¿Cuáles son las líneas imaginarias con la que puedo localizar geográficamente puntos de la Tierra en un mapa?

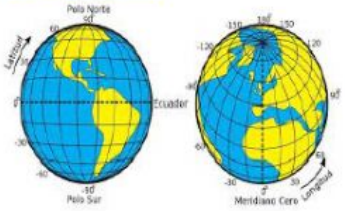

A) Longitud y latitud.

B) Paralelos y Meridianos.

C) Ecuador y Greenwich.

14. Existen en la tierra diferentes husos horarios. ¿A qué es debido?

A) A la rotación de la Tierra y la división de los meridianos.

B) A la rotación de la Tierra y la división de los paralelos.

C) Falso. En todos los sitios del planeta es la misma hora siempre.

LIVEWORKSHEETS