# Ficha 13

Nome: _____ Data: _____

**1** Escreve os números usando algarismos.

| | |
|---|---|
| Cento e vinte e oito mil, quinhentas e quarenta unidades. | |
| Quinhentos e cinquenta e três mil e nove unidades. | |
| Trinta mil, seiscentas e oitenta e uma unidades. | |
| Trezentos e setenta mil e cinquenta e três unidades. | |
| Cento e dezoito mil e sessenta e duas unidades. | |

**2** Escreve os números na grelha e faz a sua leitura por ordens e por classes.

| | Classe dos Milhares | | | Classe das Unidades | | |
|---|---|---|---|---|---|---|
| | C | D | U | C | D | U |
| 121 375 | 1 | 2 | 1 | 3 | 7 | 5 |
| 312 953 | | | | | | |
| 37 128 | | | | | | |

**121 375**
- Ordens: _____
- Classes: _____

**312 953**
- Ordens: _____
- Classes: _____

**37 128**
- Ordens: _____
- Classes: _____

**3** Completa.

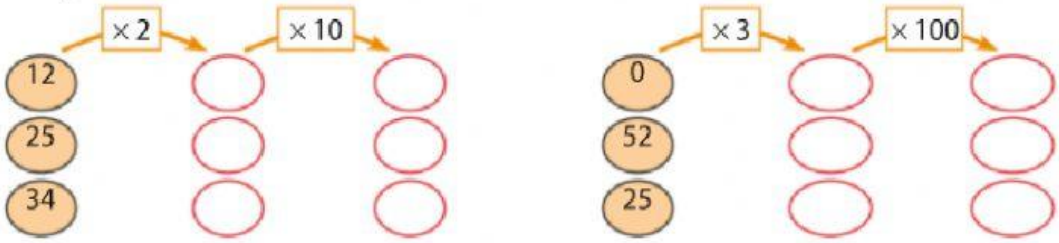


**4** Pinta os números que são múltiplos de 9.

| | | | | | | | | |
|---|---|---|---|---|---|---|---|---|
| 11 | 9 | 0 | 27 | 86 | 81 | 93 | 70 | 18 |
| 28 | 99 | 25 | 50 | 56 | 35 | 49 | 63 | 84 |

© AREAL EDITORES



LIVEWORKSHEETS

**5** Descobre os algarismos que faltam nas operações.

| | | | | | | | | | | | |
|---|---|---|---|---|---|---|---|---|---|---|---|
| | | □ | 1 | 2 | | 6 | □ | 8 | □ | 3 | □ | 1 |
| | | 2 | □ | 4 | | | | | | | 1 | □ |
| + | | | 5 | □ | | − □ | 5 | □ | 3 | + □ | 4 | 3 |
| | 1 | 0 | 9 | 8 | | 4 | 4 | 6 | 1 | 5 | 7 | 9 |

**6** Preenche as lacunas.

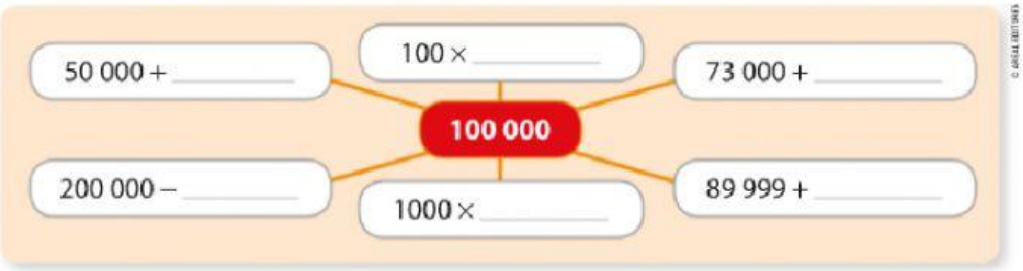


**7** Observa a figura e liga corretamente.

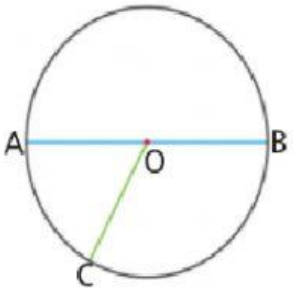


| | |
|---|---|
| *O* | diâmetro |
| *[AB]* | raio |
| *[OC]* | centro |

**8** Completa.

• _____ é o conjunto de pontos do espaço que são equidistantes de um ponto fixo chamado centro.

• _____ é um sólido geométrico formado pela superfície esférica e a respetiva parte interna.

**9** Um diospireiro tinha 275 diospiros. Colheram-se 64 e caíram 35.

Quantos diospiros ainda estão na árvore?

R.: _____



LIVEWORKSHEETS