NUMERACIÓ FINS EL 79

1. Escolta i tria com es llegeixen aquest números:

70 ▶	75 ▶
71 ▶	76 ▶
72 ▶	77 ▶
73 ▶	78 ▶
74 ▶	79 ▶

2. Relaciona amb fletxes:

70 + 8	73	7 d i 4 u
70 + 3	71	7 d i 1 u
70 + 1	78	7 d i 8 u
70 + 4	74	7 d i 3 u

3. Tria el signe > = < que correspongui:

58		68	75		57
73		79	49		49

4. Escriu quin nombre correspon a cada lloc de la recta numèrica:

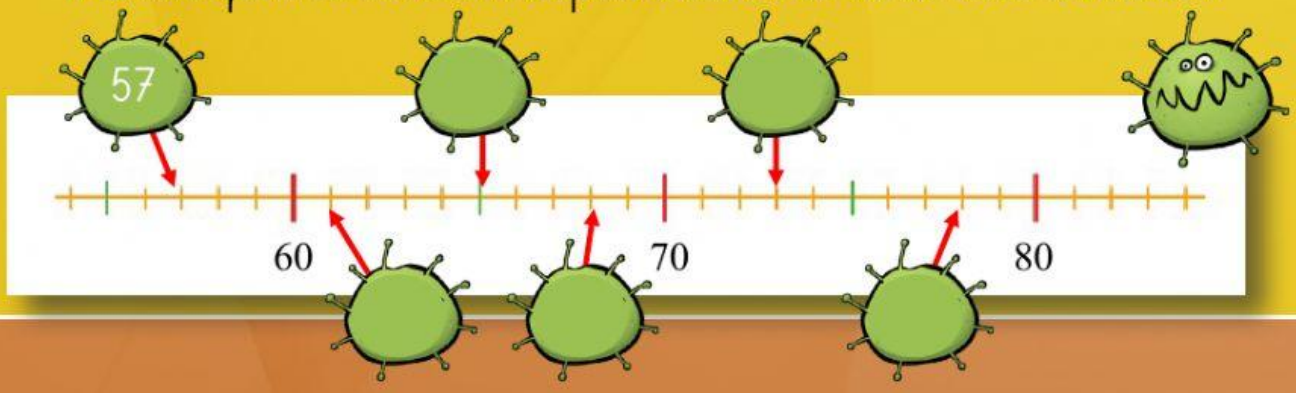

5. Completa el quadre numèric amb els nombres que falten:

21	22	23	24		26	27	28	29	30
	32	33	34	35		37	38		40
41	42		44	45	46	47	48	49	
51	52	53	54		56	57	58	59	60
	62	63	64	65	66	67	68		70
71	72		74	75		77		79	80

6. Completa. Salta a la recta numèrica per trobar les respostes.

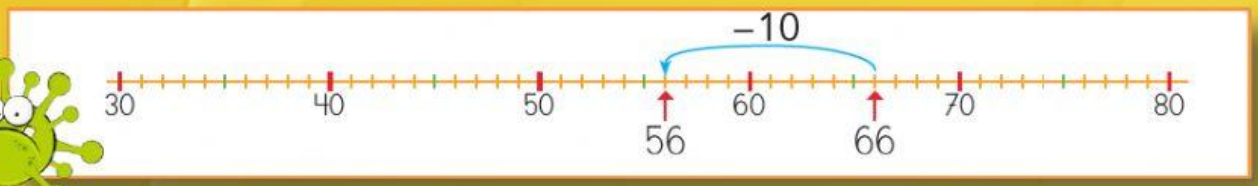

55	+10 →		45	-10 →		65	+10 →		78	-10 →	
51	+10 →		47	-10 →		68	+10 →		73	-10 →	
59	+10 →		44	-10 →		69	+10 →		77	-10 →	
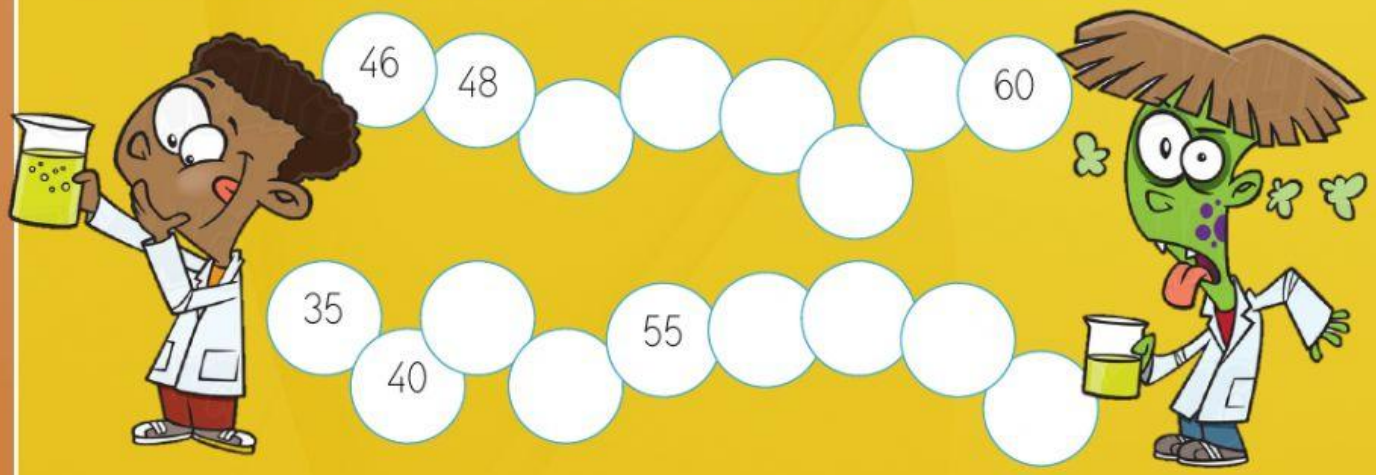
7. Pensa quin nombre has de sumar o restar a cada sèrie: