س1 : اختار نوع العدسة المُستعملة :

أ) عدسة محدبة | ب) عدسة مقعرة

أ) عدسة محدبة | ب) عدسة مقعرة

س2: اسم الظاهرة الموّضحة في الشكل المجاور :

أ) انكسار الضوء | ب) انعكاس الضوء

س3: اختار السلوك الصحيح للأشعة في العدسات الآتية :

1) العدسة المقعرة :

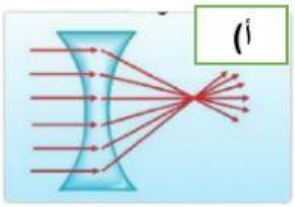

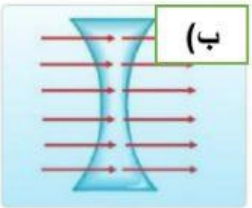

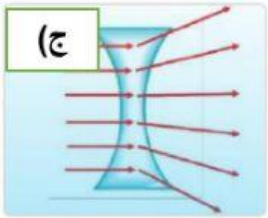

2) العدسة المحدبة :

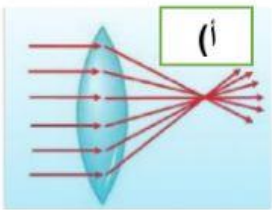

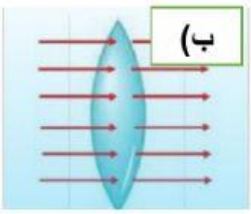

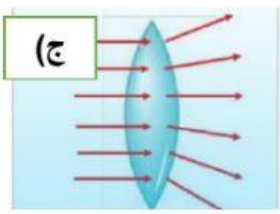

LIVEWORKSHEETS