Unidad Educativa Cristiano Remanso de Amor

Evaluación de Ciencias Naturales

Segundo Parcial

Nombre: _____ **10mo EGB.**

Fecha: _____

1. **Completa el siguiente organizador gráfico sobre la clasificación de los invertebrados.**

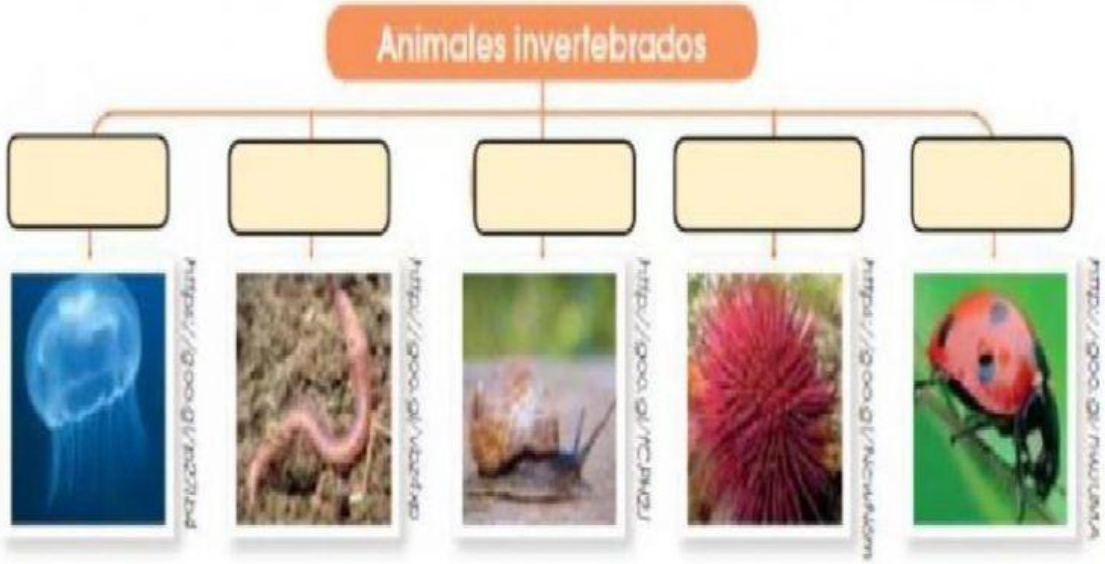

LIVEWORKSHEETS

2. **Observé la imagen y completa la estructura de los moluscos.**

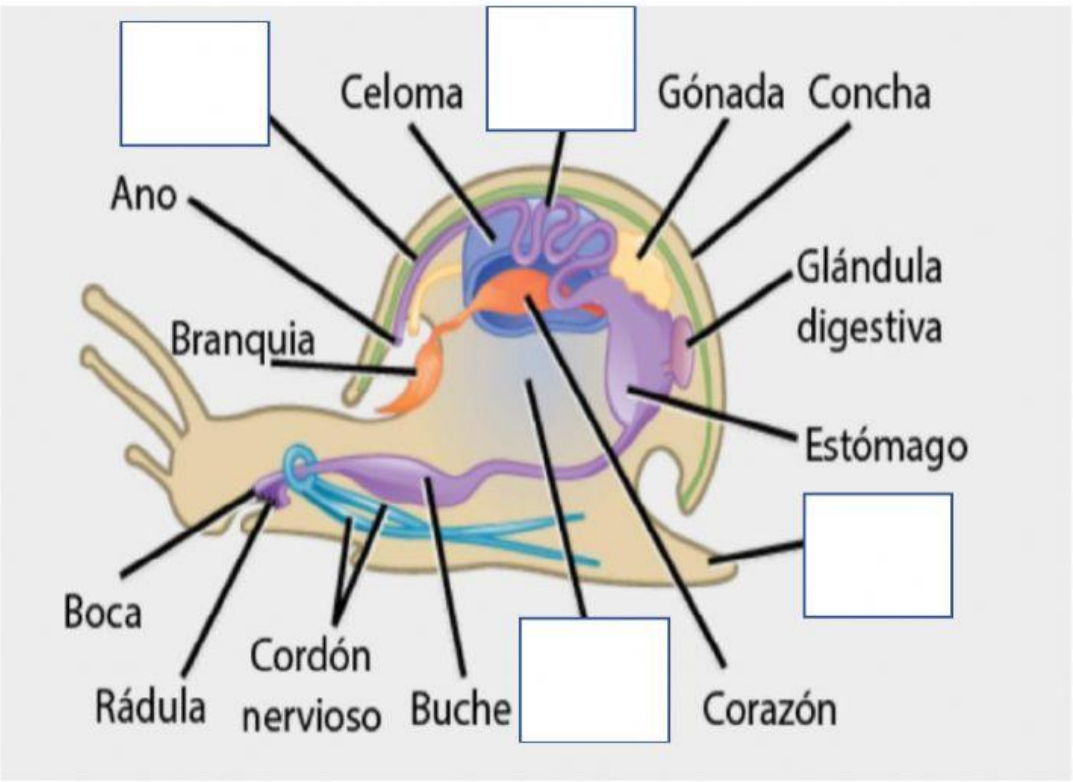

LIVEWORKSHEETS

3. Relaciona las imágenes con la característica correspondiente.

- Tienen el cuerpo gelatinoso y tienen tentáculos.
- Tienen esqueleto externo y patas articuladas.
- Tienen un esqueleto interno hecho de placas.
- Son acuáticas y viven fijas al fondo del mar.
- Su cuerpo suele estar protegido por una o dos conchas.
- Su cuerpo es blando y alargado y carecen de patas.

4. Define con tus propias palabras. ¿ En qué consiste la reproducción celular?.

....,.....,.....

....,.....,.....

....,.....,.....

LIVEWORKSHEETS

5. **Escriba las partes de los hongos.**

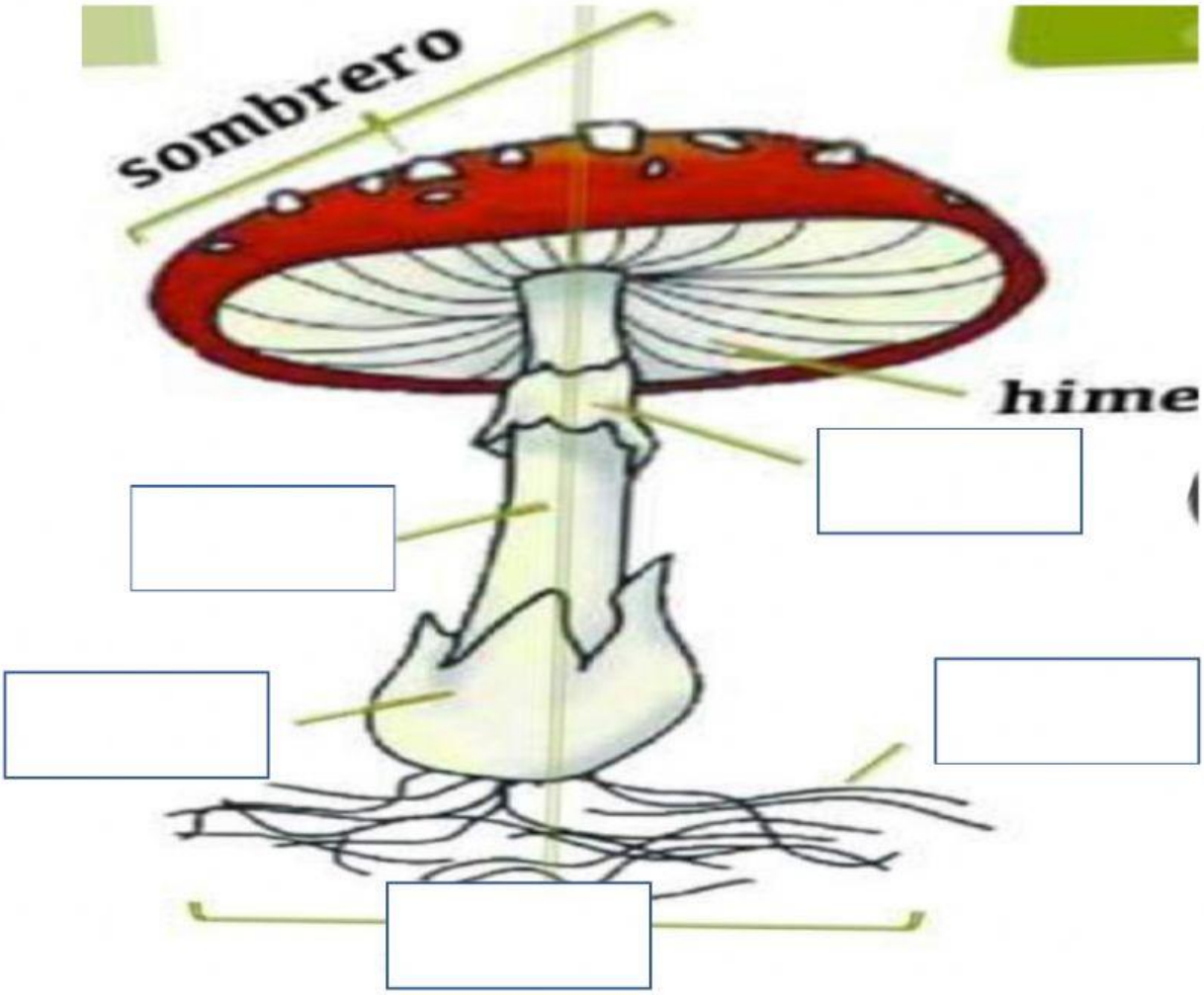

LIVEWORKSHEETS

6. **Señale la respuesta correcta.**

   ¿La taxonomía es?

   A. Una ciencia que descubre el pasado y presente de las personas.
   B. El campo de la ciencia que se ocupa de describir y nombrar la diversidad de los seres vivos que existen en la naturaleza.
   C. Conjunto de normas y saberes de la ciencia y el desarrollo de la taxonomía.

7. **Seleccione la respuesta correcta.**
   ¿Cuál fue uno de los primeros filósofos que clasifico los organismos en dos grandes grupos?

   A. Roseau
   B. Sócrates
   C. Aristóteles

8. **Escoja la respuesta correcta.**
   ¿En honor a que personaje existe la nomenclatura Lineana

   A. Linneo
   B. Aristóteles
   C. Mario Morrón

LIVEWORKSHEETS

9. **¿Enumere 3 especies que deben que cuentan para designar a una nueva especie?**

1……,……..

2……

3……

10. **¿Seleccione la respuesta correcta. ?**

La taxonomía se clasifica en

A. Animales, plantas y especies
B. Dominios, actual y reinos
C. Especies, aves, signos

LIVEWORKSHEETS