เพจ : สอนคณิต ออนไลน์

ชื่อ-นามสกุล..... ชั้น..... เลขที่.....

ใบงานที่ 11 เรื่อง ความยาวรอบรูปและพื้นที่ของรูปสี่เหลี่ยมมุมฉาก

คำชี้แจง ให้นักเรียนหาพื้นที่ของรูปสี่เหลี่ยมมุมฉากต่อไปนี้

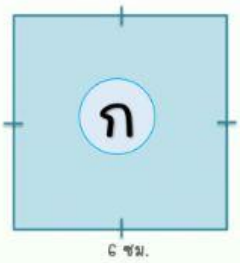

ความยาวรอบรูป -

พื้นที่ -

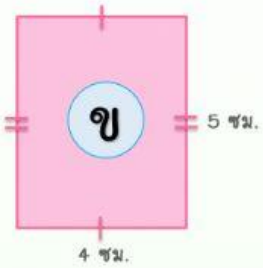

ความยาวรอบรูป -

พื้นที่ -

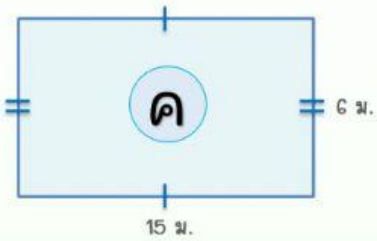

ความยาวรอบรูป -

พื้นที่ -

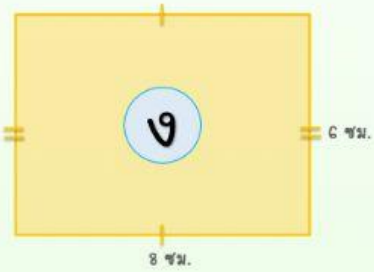

ความยาวรอบรูป -

พื้นที่ -

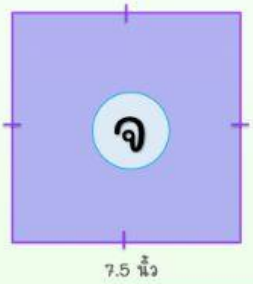

ความยาวรอบรูป -

พื้นที่ -

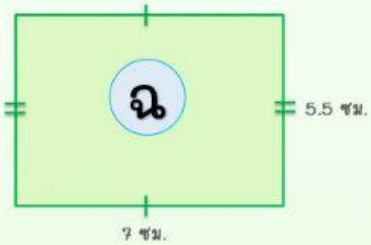

ความยาวรอบรูป -

พื้นที่ -

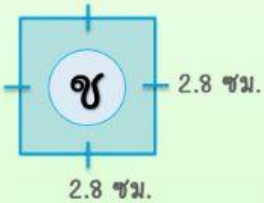

ความยาวรอบรูป -

พื้นที่ -

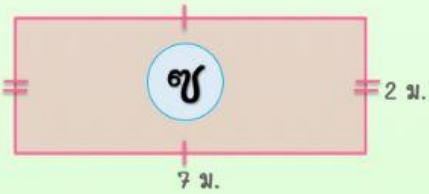

ความยาวรอบรูป -

พื้นที่ -

LIVEWORKSHEETS