Toán - Luyện tập chung (t.100)

1 Một sợi dây thép được uốn như hình bên. Tính độ dài của sợi dây.

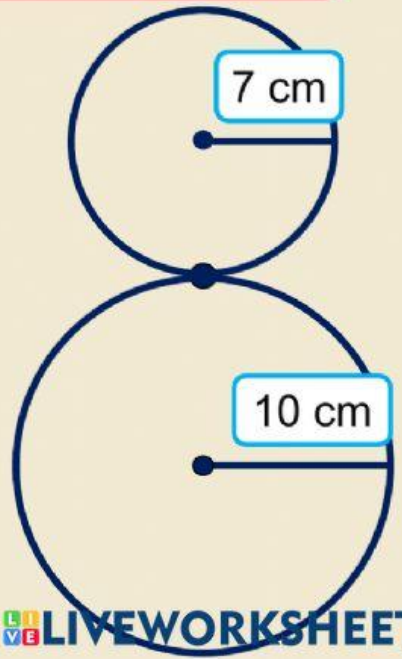

Bài làm

Chu vi hình tròn bán kính 7 cm là:

…. x …. x …… = …….. (cm)

Chu vi hình tròn bán kính 10 cm là:

…. x …. x …… = …….. (cm)

Độ dài sợi dây thép là:

…….. + …….. = ……. (cm)

Đáp số: …….cm

LIVEWORKSHEETS

2 Hai hình tròn có cùng tâm O như hình bên. Chu vi hình tròn lớn dài hơn chu vi hình tròn bé bao nhiêu xăng-ti-mét?

Bán kính của hình tròn lớn là:

….. + …….. = …….. (cm)

Chu vi của hình tròn lớn là:

…….x …. x ……. = ……..(cm)

Chu vi của hình tròn bé là:

…….x …. x ……. = ……..(cm)

Chu vi của hình tròn lớn dài hơn chu vi của hình tròn bé là:

……. – …….. = …… (cm)

Đáp số: …… cm

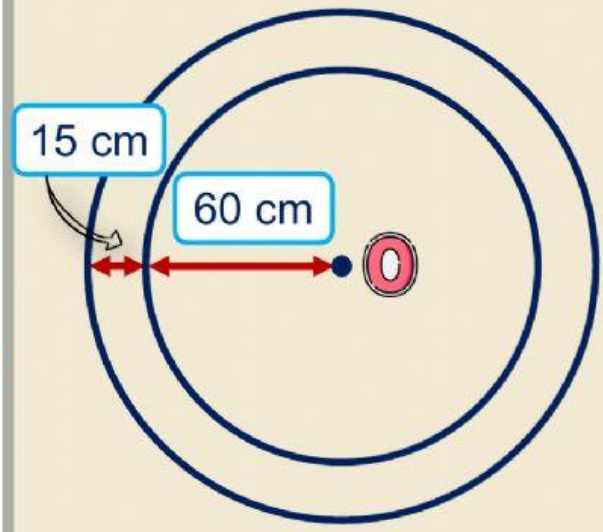

LIVEWORKSHEETS

3 Hình bên tạo bởi hình chữ nhật và hai nửa hình tròn (xem hình vẽ). Tính diện tích hình đó.

Bài làm

Chiều dài của hình chữ nhật là:

……..= …… (cm)

Diện tích của hình chữ nhật là:

…… x …….= …… (cm^2)

Diện tích hai nửa hình tròn là:

.....= …….. (cm^2)

Diện tích hình đã cho là:

……. + ……. = ……. (cm^2)

Đáp số: …….. cm^2

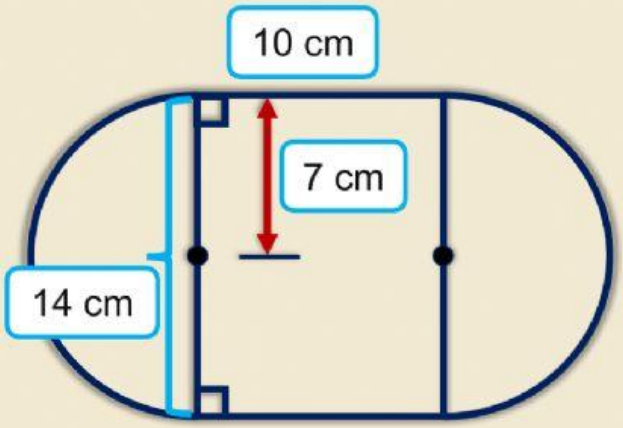

LIVEWORKSHEETS

4

Khoanh vào chữ đặt trước câu trả lời đúng: Diện tích phần đã tô màu của hình vuông ABCD là:

A. 13,76 cm^2

B. 114,24 cm^2

C. 50,24 cm^2

D. 136,96 cm^2

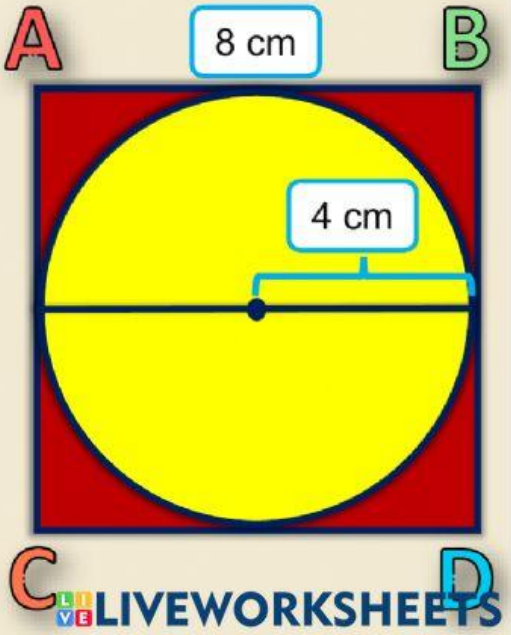

LIVEWORKSHEETS