UNIDAD EDUCATIVA MATOVELLE

Misioneros Oblatos

El Quinche Ecuador

PRIMER QUIMESTRE
EVALUACIÓN PARCIAL DOS
CIENCIAS NATURALES
AÑO LECTIVO 2021-2022

Nombre Y Apellido…..... …….

Grado o Curso: 3 ER EGB A- B- **Fecha:** ……

Profesor/as: Lic. Mercy Arias, Lic. Jessica Castro **Fecha de entrega:** 11 -01-2022.

1.- Lea y seleccione la respuesta correcta (2p.)

Los animales se clasifican en dos grupos:

A.- Tienen columna vertebral.

B.- Tienen pelos y garras.

C.- No tienen columna vertebral.

2.- Encierre las características de los animales vertebrados. (1p.)

A.-Comen carne.

B.- Están formados por un esqueleto.

C.- Nacen de un huevo.

3.- Seleccione a los animales vertebrados (2p.)







LIVEWORKSHEETS

4.- Seleccione la respuesta correcta. (1p.)

A.- La columna vertebral se encuentra a un costado de la columna.

B.- Los animales que no tienen huesos se llaman vertebrados.

C.- La columna vertebral se encuentra en el centro de la espalda.

5.- Seleccione la respuesta correcta sobre la metamorfosis de la mariposa. (1p.)





A.- huevos, mariposa, pupa, oruga.

B.-. huevos, oruga, mariposa, pupa.

C.- huevos, oruga, pupa, mariposa.

6.- Observe las flechas que indican en la imagen y seleccione la respuesta correcta. (1p.)

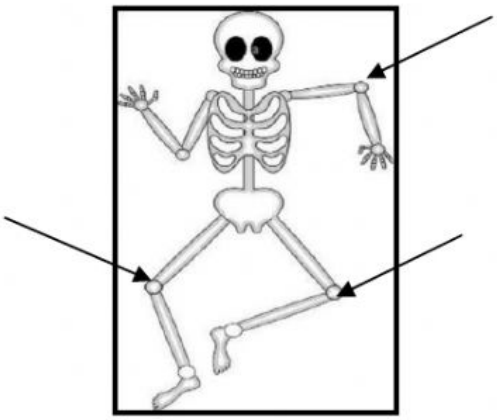

A.- Tendones

B.- Músculos.

C.- Articulaciones.

LIVEWORKSHEETS

7.- Observe los músculos que señalan las flechas y seleccione la respuesta correcta. (1p.)

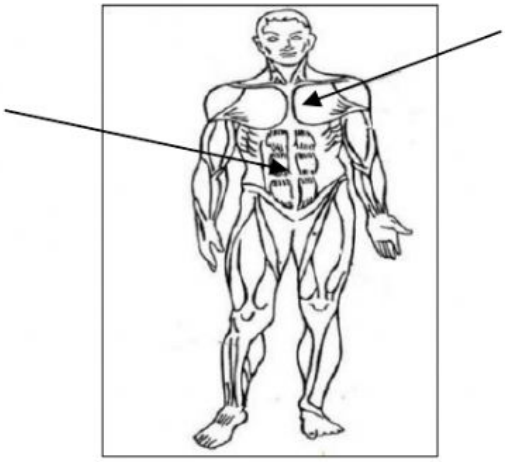

A.-Bíceps, pectorales

B.-Bíceps, abdominales

C.-Pectorales, abdominales

8.- Seleccione la respuesta correcta. (1p.)

Los músculos son órganos elásticos que permiten:

A.- Tomar oxígeno

B.- Crecer

C.- Contraerse y relajarse.

LIVEWORKSHEETS

LIVEWORKSHEETS