4 Quan sát hình vẽ.

Ba điểm nào thẳng hàng?

.....

.....

.....

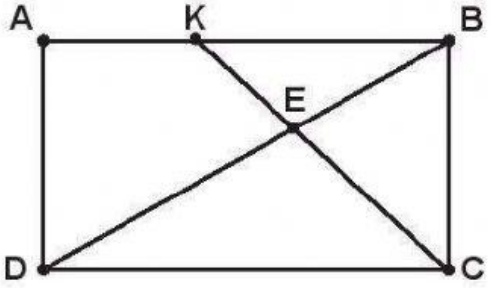

5

Tính độ dài đường gấp khúc ABCD.

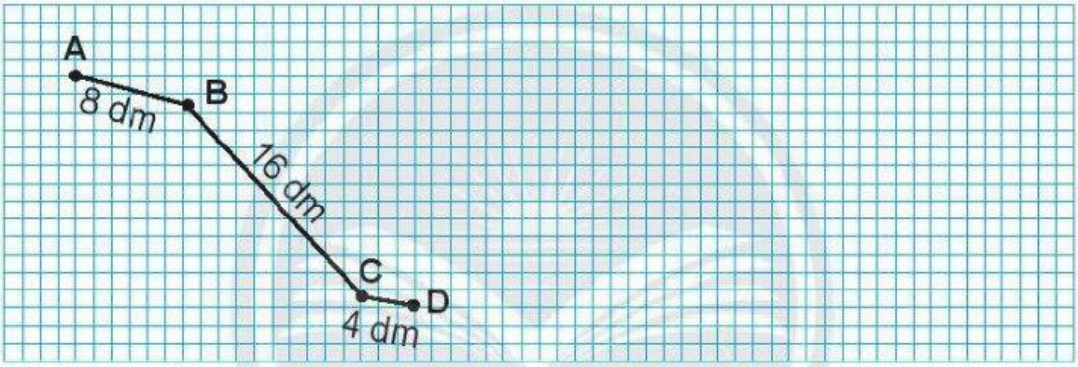

6 **Số?**

Chân trời sáng tạo

Tháng 4 **2022**

Thứ Hai	Thứ Ba	Thứ Tư	Thứ Năm	Thứ Sáu	Thứ Bảy	Chủ nhật
				1	2	3
4	5	6	7	8	9	10
11	12	13	14	15	16	17
18	19	20	21	22	23	24
25	26	27	28	29	30	

– Tháng 4 có ..... ngày, có ..... ngày Chủ nhật.

Đó là những ngày:.....

.....

– Thứ Sáu đầu tiên của tháng 4 là ngày .....

LIVEWORKSHEETS

7 **Nối** (theo mẫu).

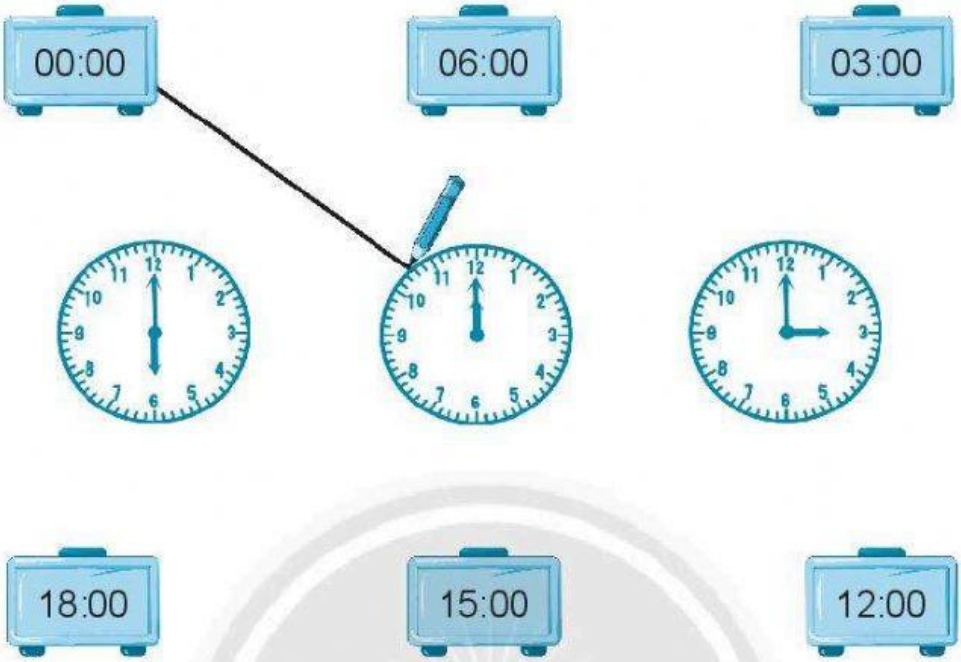

8

Thùng gỗ đựng được nhiều hơn xô **25** ℓ nước. Hỏi thùng gỗ đựng được bao nhiêu lít nước?

LIVEWORKSHEETS