luyện tập 1 Số ?

Bảng nhân 5

a)

Thừa số	5	5	5	5	5	5	5	5
Thừa số	3	5	7	9	2	4	6	8
Tích	15							

b)

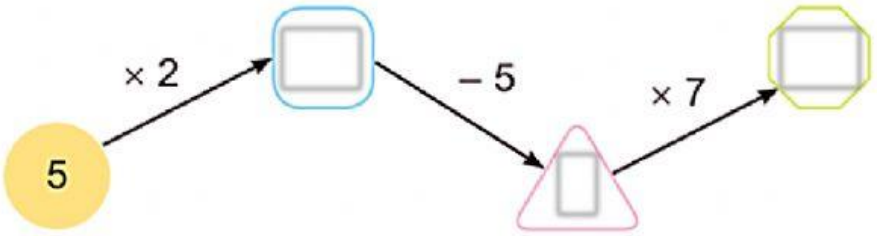

LIVEWORKSHEETS

luyện tập

2 Đếm thêm 5 rồi nêu số còn thiếu.

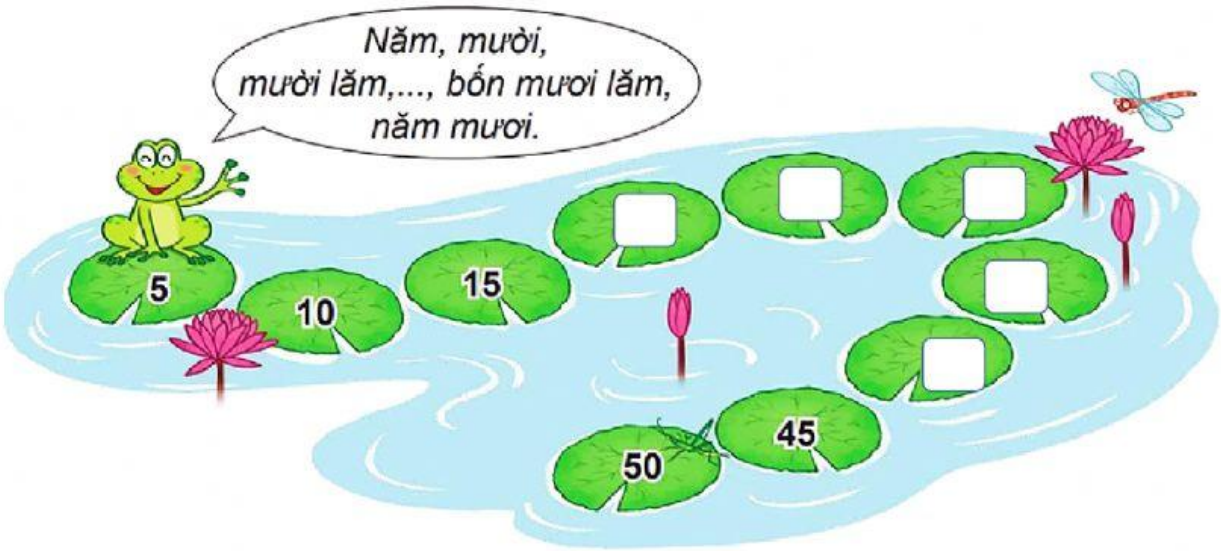

LIVEWORKSHEETS

luyện tập

3

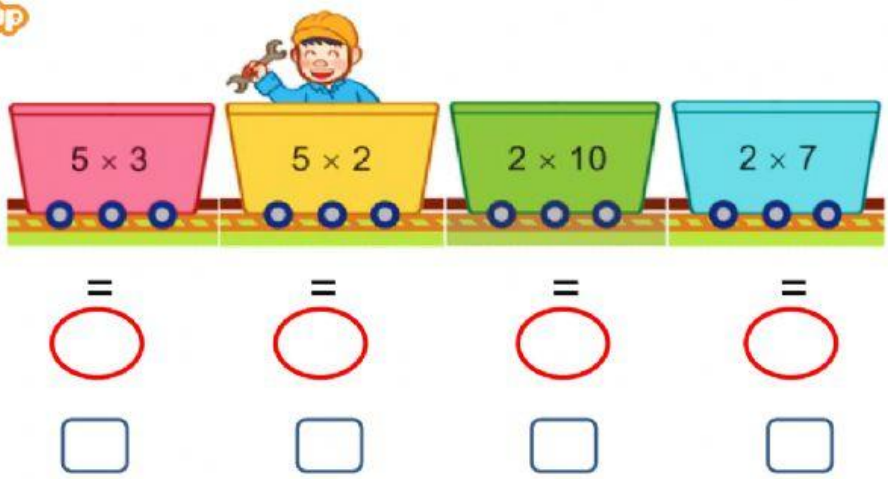

Tìm kết quả phép tính và tích vào toa tàu ghi phép tính có kết quả lớn nhất.

LIVEWORKSHEETS