NASCE LA TERRA

Gli scienziati hanno formulato varie ipotesi sull'origine della Terra; l'ipotesi ritenuta più verosimile si chiama **Teoria del Big Bang.**

Osserva le immagini, leggi con attenzione le didascalie e completa i testi con le parole mancanti scelte tra le seguenti: **vulcani**, **alghe**, **esplosione**, **nubi**, **oceani**, **Terra**.

14 miliardi di anni fa una grande _____, il Big Bang, dà origine a masse di materia incandescente.

Da queste masse incandescenti si formano stelle e pianeti.

4,6 miliardi di anni fa nasce anche la _____ che è una palla di materia incandescente.

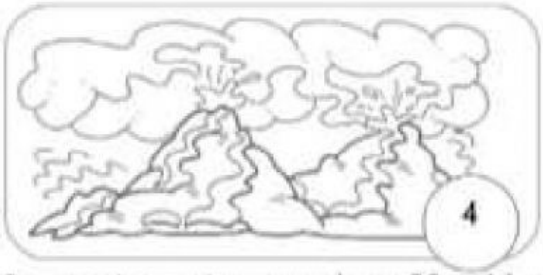

La parte esterna si raffredda rapidamente; si verificano molti terremoti e ci sono _____ in eruzione. Si formano tante _____.



Inizia a piovere per lungo tempo e le piogge intense formano gli _____.

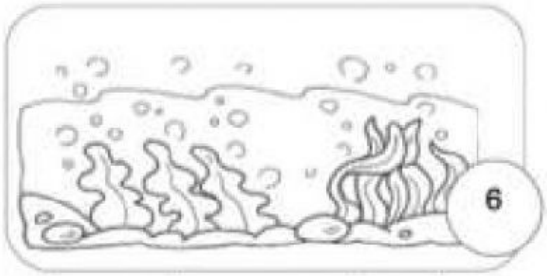

Negli oceani nascono le prime forme di vita: le _____. Esse producono ossigeno e l'aria diventa respirabile.

Studia e colora.

LIVEWORKSHEETS

VERIFICA DI STORIA 1° QUADRIMESTRE

Nome alunno…….. A.s. …….. classe …….. Data ……

LA LINEA DEL TEMPO STORICO

Trova la corrispondenza.

I periodi della storia si misurano in anni, secoli, millenni.

(un millennio – un secolo – un anno)

12 mesi	……
100 anni	……
365 giorni	……
1000 anni	……
10 secoli	……
10 anni	……

Completa la tabella scrivendo gli anni indicati (scrivi i numeri).

Un millennio fa	Un secolo fa	Oggi 20……

LIVEWORKSHEETS