BÉ VUI HỌC TOÁN

Thử thách 1: Tính

4 + 4 =

10 – 2 =

2 + 3 =

1 + 8 =

7 + 0 =

6 – 5 =

4 + 6 – 2 =

Thử thách 2: Điền >, <, =

8 + 2		9 + 0
7 – 3		6
9 – 4		8 – 3
8 + 0		4 + 5

LIVEWORKSHEETS

Thử thách 3: Điền số và viết phép tính

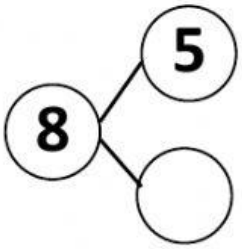

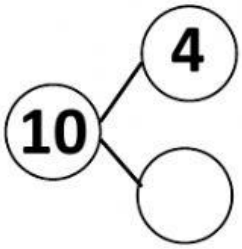

+ =

+ =

- =

- =

Thử thách 4: Điền số và viết phép tính

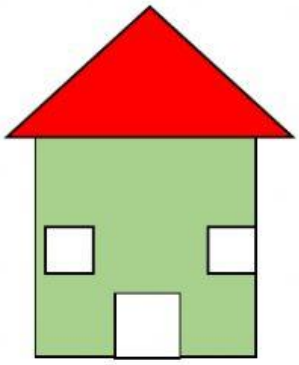

Có ..... hình vuông

Có ..... hình tam giác

Có tất cả ..... hình tam giác và hình vuông.

CHÚC MỪNG CÁC CON HOÀN THÀNH THỬ THÁCH!

LIVEWORKSHEETS