PHÒNG GD&ĐT QUẬN BÌNH TÂN **TRƯỜNG TIỂU HỌC LÁ XANH** Họ tên:…… Lớp:……	**KIỂM TRA ĐỊNH KÌ HKI – NĂM HỌC: 2020 - 2021** **Môn: TOÁN – Lớp 1** **Ngày kiểm tra: 29/12/2020** **Thời gian làm bài: 35 phút**	
	Giám thị 1 *(ký tên)*	**Giám thị 2** *(ký tên)*

Điểm	**Nhận xét** …… …… …… ……	**Giám khảo 1** *(ký tên)*	**Giám khảo 2** *(ký tên)*

I. Khoanh tròn vào chữ cái (A, B, C) trước ý trả lời đúng:

…/1đ Câu 1: Các số 9, 2, 5, 8 xếp theo thứ tự từ **lớn đến bé** là:

A. 2, 8, 5, 9

B. 2, 9, 8, 5

C. 9, 8, 5, 2

…/1đ Câu 2: Có mấy **khối hộp chữ nhật** trong hình dưới đây?

A. 1 B. 2 C. 3

…/1đ Câu 3: **Dấu** cần điền vào chỗ chấm **1 + 6 …… 6 – 1** là:

A. < B. > C. =

II. Nối:

…/1đ Câu 4: Em hãy nối các phép cộng với hình thích hợp:

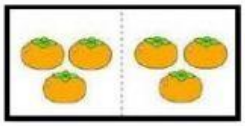

3 + 2 = 5

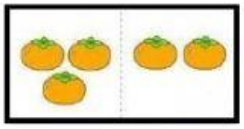

3 + 3 = 6

LIVEWORKSHEETS

…/1đ Câu 5: Em hãy nối để tạo thành sơ đồ tách – gộp:

a) 6

2 4

b) 1

9

8

…/1đ Câu 6: Nối hình với số thích hợp:





4 7 6 8

III. Điền khuyết:

…/1đ Câu 7: Tính:

3 + 7 = ….. 7 + 3 – 6 = …..

9 – 6 = ….. 5 – 0 + 2 = …..

…/1đ Câu 8: Hoàn thành dãy số:

7 —+2→ ○ —-6→ ○ —+4→ ○ —-2→ ○

…/1đ Câu 9: Em hãy viết phép trừ phù hợp với hình dưới đây vào ô trống:

…/1đ Câu 10: Hình vẽ dưới đây có :

…. Hình tam giác △

….. Hình vuông □

…. Hình tròn ○

…. Hình chữ nhật ▭

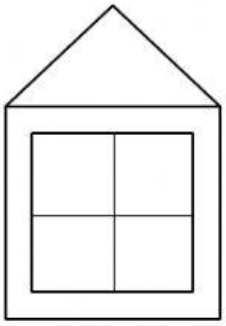

HẾT

LIVEWORKSHEETS

LIVEWORKSHEETS