NOME:..... PROVA N°3 (A)

Ob: Conosce i numeri fino al 500 e sa operare con essi

- Rispondi alle domande colorando il quadratino con la risposta corretta

- Quanto devi aggiungere a **8 da** per arrivare a **100 u**?

  ☐ 20 u ☐ 200 u ☐ 2 u

- Se calcoli **8 da + 15u**,che cosa ottieni?

  ☐ 23 ☐ 95 ☐ 815

- Se sottrai **8 da a 100 u**, che cosa scrivi?

  ☐ 800 – 100 ☐ 100 - 80 ☐ 1000 – 80

-Confronta i numeri usando i simboli <>=

167 176	77 177	370.... 307	440... 440
301....103	187....189	101 99	100 u.... 10 da
3 da ... 3h	15 da.... 50	60 u....6h	5 h 500

-Colora con lo stesso colore i petali con i numeri che sommati tra di loro formano il numero al centro.

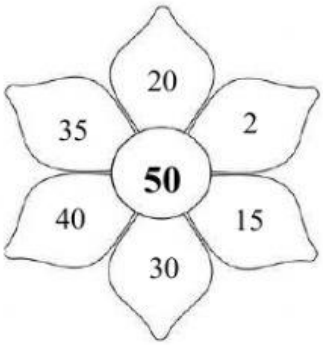



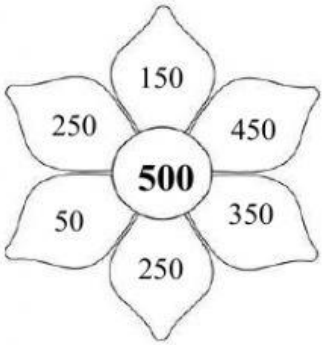

-Definisci il numero precedente e il numero successivo al numero dato

Precedente	Numero	Successivo
	246	
	357	
	499	
	187	

Precedente	Numero	Successivo
	120	
	149	
	264	
	398	

LIVEWORKSHEETS

NOME:..... PROVA N°3 (B)

Ob: Conosce i numeri fino al 500 e sa operare con essi

-Scrivi i seguenti numeri in ordine crescente

124 254 300 100 85 364 500

-Scrivi i seguenti numeri in ordine decrescente

213 52 158 500 415 321 312

- Colora con lo stesso colore il cartellino con il numero in lettere e il cerchio con il numero in cifre

centoventidue	500	430	quattrocentotrenta
cinquecento	260	122	duecentosessanta

-Scrivi i numeri sotto l'abaco corrispondente.

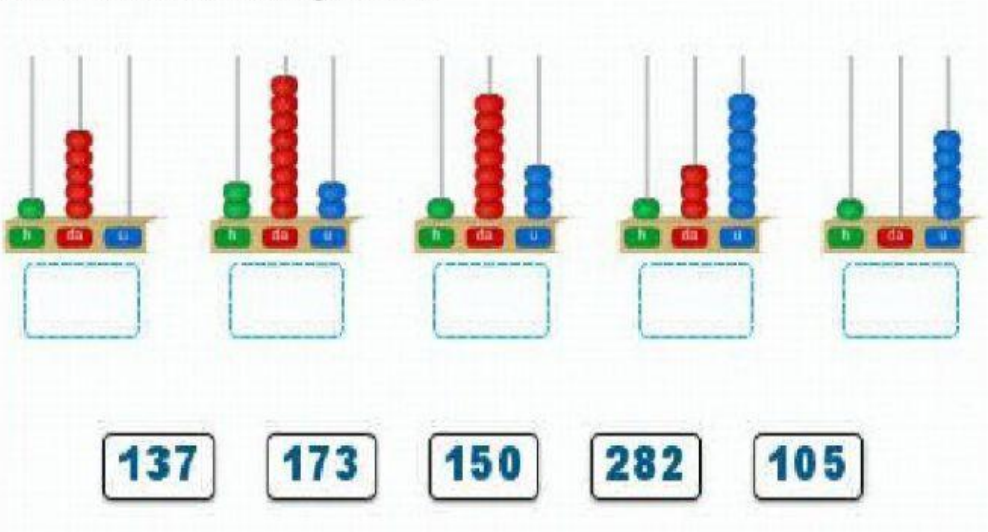

LIVEWORKSHEETS