TRƯỜNG TH-THCS-THPT VIỆT ANH **HỌ TÊN:** …… **LỚP : HAI…….**	**KTĐK CUỐI HỌC KÌ I - NĂM HỌC: 2021 - 2022** **MÔN TOÁN – LỚP 2** **Thời gian:** 40 **phút (Ngày**...../...../ **2022)**	
	GIÁM THỊ 1: ..... **GIÁM THỊ 2:**	**SBD**

ĐIỂM	**NHẬN XÉT**	
	....	**GIÁM KHẢO 1:**..... **GIÁM KHẢO 2:** .....

……/10 điểm **TRẮC NGHIỆM**

Em hãy chọn chữ cái đặt trước câu trả lời đúng.

..../0,5 điểm **Câu 1: Số 85 đọc là:**

A. Tám mươi lăm

B. Tám mươi năm

C. Tám lăm

..../0,5 điểm **Câu 2: Diền dấu >,<,= vào chỗ trống. 35 + 24 …….. 69**

A. > B. < C. =

..../0,5 điểm **Câu 3: Số liền trước của số 80 là số:**

A. 81 B. 80 C. 79

..../0,5 điểm **Câu 4: Kết quả của phép tính 9 + 7 là:**

A. 17 B. 16 C. 15

..../0,5 điểm **Câu 5: Điền số thích hợp vào chỗ trống: 13 - …… = 7**

A. 4 B. 5 C. 6

..../0,5 điểm **Câu 6: kết quả của phép tính 58 + 8 = ?**

A. 66 B. 56 C. 76

LIVEWORKSHEETS

…./0.5 điểm **Câu 7: Điền số thích hợp vào chỗ trống 68 - …… = 59**

A. 8 B. 9 C. 11

…../0.5 điểm **Câu 8: Độ dài cuốn sách toán lớp 2 khoảng ?**

A.25 cm B. 1dm C. 30cm

…../1 điểm **Câu 9: Hãy phân loại và kiểm đếm các con vật có trong hình ?**



A.11 con bọ rùa, 3 con chuồn chuồn, 6 con ong

B. 3 con bọ rùa, 11 con ong, 3 con chuồn chuồn, 5 con cào cào

C. 11 con bọ rùa, 3 con chuồn chuồn, 5 con cào cào, 6 con ong

…/1 điểm **Câu 10: Lan có 5 cuốn vở. Mẹ đi chợ mua cho Lan thêm 12 cuốn vở. Hỏi Lan có tất cả bao nhiêu cuốn vở ?**

A.17 cuốn vở B. 7 cuốn vở C. 27 cuốn vở

…/1 điểm **Câu 11: Minh có tất cả 35 cái kẹo mút. Minh cho Hùng 18 cái kẹo mút. Hỏi Minh còn lại bao nhiêu cái kẹo mút ?**

A.43 cái B. 17 cái C. 33 cái

…/0.5 điểm **Câu 12: Đồng hồ chỉ mấy giờ ?**

A.2 giờ B. 6 giờ C. 10 giờ

LIVEWORKSHEETS

…../0.5 điểm **Câu 13: Độ dài của cây bút chì là:**

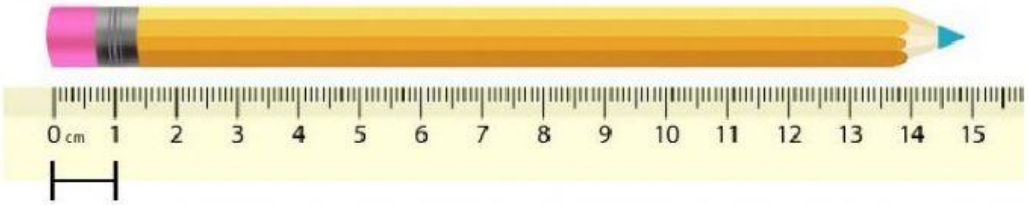

A.15 dm B. 15cm C. 14cm

…../0.5 điểm **Câu 14: Điền số thích hợp vào dấu hỏi chấm ?**

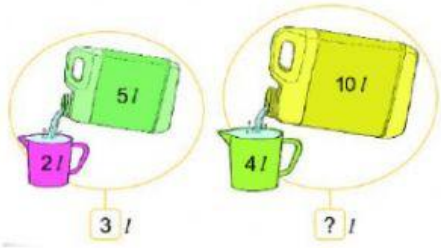

A.14 ℓ B. 21 ℓ C. 6 ℓ

…../1 điểm **Câu 15: Câu nào sau đây đúng ?**

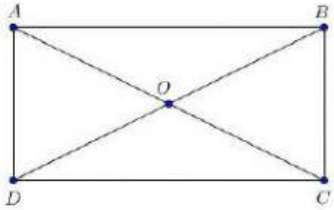

A.Điểm A, O, B thẳng hàng

B. Điểm D, O, C không thẳng hàng

C. Điểm A, O, C thẳng hàng

…../0.5 điểm **Câu 16: Một con ốc sên bò từ điểm A qua điểm B tới C . Hãy tính độ dài đường đi của con ốc sên ?**

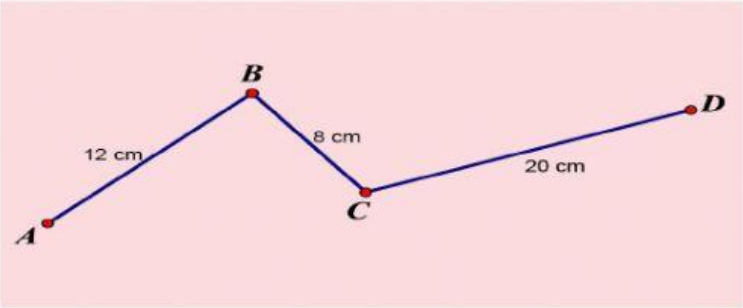

A.20 cm B. 40 cm C. 28 cm

LIVEWORKSHEETS