แบบทดสอบหลังเรียน

หน่วยการเรียนรู้ที่ 11 การนำเสนอข้อมูล

ชื่อ.....นามสกุล.....เลขที่.....ชั้น ป.5

คำชี้แจง : ให้นักเรียนเลือกคำตอบที่ถูกต้องที่สุดเพียงข้อเดียว

จากแผนภูมิแท่งเปรียบเทียบที่กำหนดให้

ตอบคำถามข้อ1 - 4

สินค้าส่งออกของบริษัทไทยนำ

ตั้งแต่เดือน มีนาคม - มิถุนายน. พ.ศ. 2552

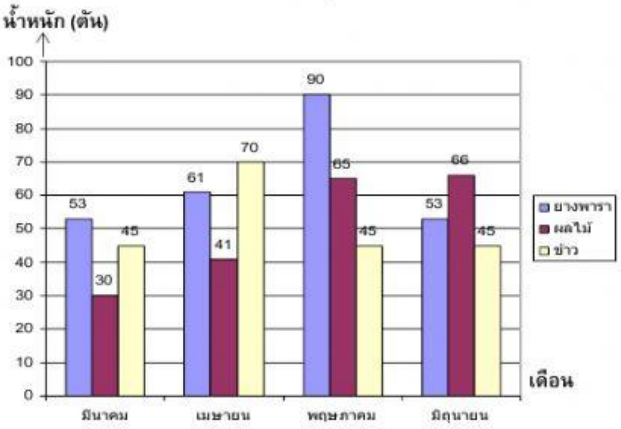

1. ข้อใดถูกต้อง

   ก. เดือนเมษายนส่งสินค้าออกมากกว่าเดือนพฤษภาคม

   ข. เดือนมีนาคมส่งสินค้าออกมากกว่าเดือนมิถุนายน

   ค. เดือนมิถุนายนส่งสินค้าออกน้อยที่สุด

   ง. เดือนพฤษภาคมส่งสินค้าออกมากที่สุด

2. สินค้าใดมีการส่งออกเพิ่มขึ้นทุกเดือน

   ก. ข้าว ข. ผลไม้

   ค. ยางพารา ง. ข้าวและยางพารา

3. เดือนใดส่งออกผลไม้น้อยที่สุด

   ก. มีนาคม ข. เมษายน

   ค. พฤษภาคม ง. มิถุนายน

4. เดือนมิถุนายนส่งออกข้าวน้อยกว่ายางพารากี่ตัน

   ก. 7 ตัน ข. 8 ตัน

   ค. 9 ตัน ง. 10 ตัน

อ่านแผนภูมิแท่งเปรียบเทียบ แล้วตอบคำถาม ข้อ 5-8

รายได้จากการขายไอศกรีมของเก่ทั้ง 2 ร้าน

ในรอบ 1 สัปดาห์

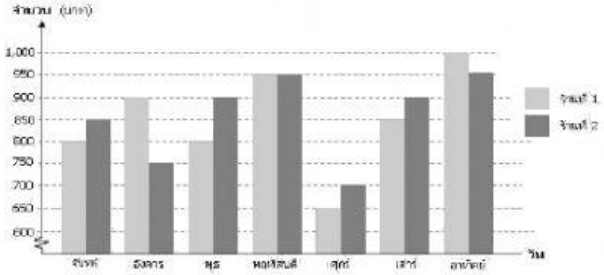

5. วันใดบ้างที่ร้านที่ 1 ขายไอศกรีมได้มากกว่าร้านที่ 2

   ก. อังคาร อาทิตย์ ข. เสาร์ อาทิตย์

   ค. จันทร์ พุธ ง. อังคาร พฤหัสบดี

6. วันใดที่ทั้งสองร้านขายไอศกรีมได้เท่ากัน

   ก. พฤหัสบดี ข. จันทร์

   ค. อังคาร ง. พุธ

7. วันอาทิตย์ทั้งสองร้านขายไอศกรีมได้เงินรวมกันทั้งหมดกี่บาท

   ก. 1,850 ข. 1,800

   ค. 1,950 ง. 1,900

8. ใน 1 สัปดาห์ร้านที่ 1 ขายไอศกรีมได้ทั้งหมดกี่บาท

   ก. 5,950 ข. 6,800

   ค. 7,910 ง. 7,925

LIVEWORKSHEETS

อ่านกราฟเส้น แล้วตอบคำถาม ข้อ 9-10

จำนวนนักเรียนที่มาใช้ห้องศิลปะในแต่ละวันใน 1 สัปดาห์

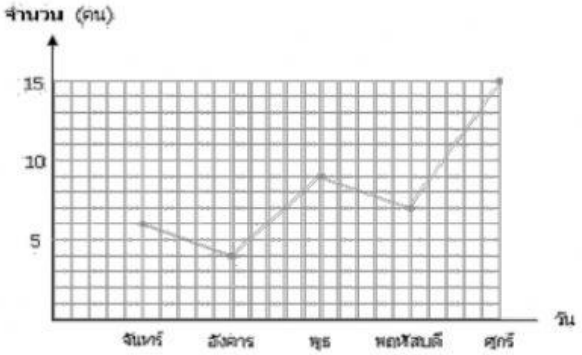

9. วันจันทร์มีนักเรียนมาใช้ห้องศิลปะมากกว่าหรือน้อยกว่าวันอังคารกี่คน

   ก. น้อยกว่า 2 คน ข. มากกว่า 1 คน

   ค. น้อยกว่า 1 คน ง. มากกว่า 2 คน

10. วันใดมีนักเรียนมาใช้ห้องศิลปะมากที่สุด เป็นจำนวนกี่คน

   ก. วันศุกร์ 15 คน

   ข. วันจันทร์ 10 คน

   ค. วันอังคาร 15 คน

   ง. วันพฤหัสบดี 8 คน

LIVEWORKSHEETS