1 Số?

5 dm = ____ cm

100 cm = ____ dm

4 dm = ____ cm

60 cm = ____ dm

Ôn tập kiến thức

Đề-xi-mét là một đơn vị đo độ dài.

Đề-xi-mét viết tắt là dm

1 dm = 10 cm 10 cm = 1 dm

Mở rộng: 10 dm = 100 cm

LIVEWORKSHEETS

2 Chọn cm hay dm?

Một ngón tay của em dài 5 _____

Chị của bạn Linh cao 15 _____

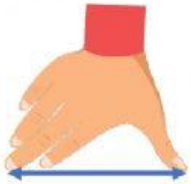

Một gang tay của ba dài 2 _____

Cây bút chì của em dài 15 _____

LIVEWORKSHEETS

3 Quan sát hình vẽ

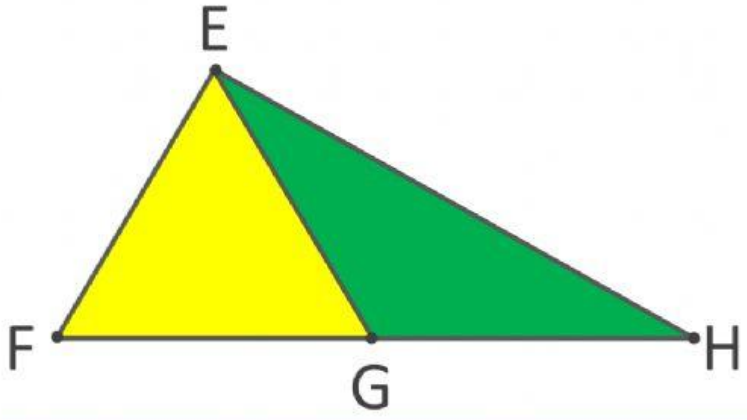

a. Nêu tên các điểm và các đoạn thẳng

Các điểm gồm:

Các đoạn thẳng gồm:

LIVEWORKSHEETS

3 Quan sát hình vẽ bên

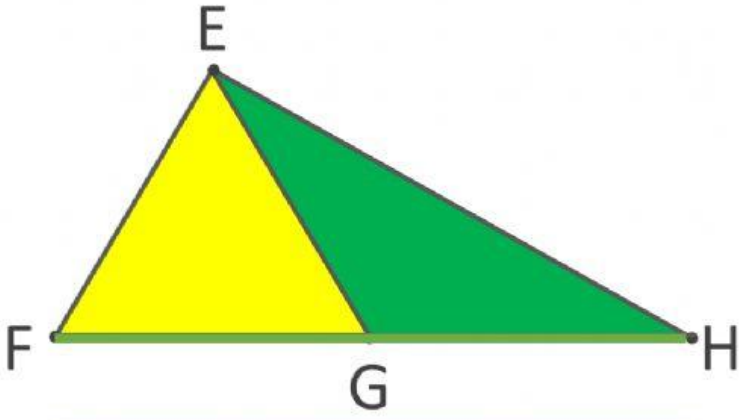

b. Nêu tên ba điểm thẳng hàng

Ba điểm , , thẳng hàng.

LIVEWORKSHEETS