A. 以下吸水和不吸水的物体有什么重要性呢？在空格里填上正确的英文字母。 8%

S 我用它来擦汗。

T 我用它来挡雨。

U 我用它来装水。

V 我用它来抹地。

1

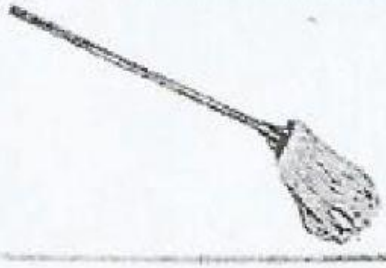

2

3

4

B. 当美娜和伟祥遇到以下情况时，他们需要哪些物体呢？将正确的答案涂上颜色。 4%

1

2

LIVEWORKSHEETS

C. 把以下的物体分类。 12%

石头



海绵

棉花

硬币

塑料手套

报纸

物体

会吸水	不会吸水
i. _____	iv. _____
ii. _____	v. _____
iii. _____	vi. _____

D. 连一连 6%

1

c

b 黏土

2

c

b 壤土

3

c

b 沙土

LIVEWORKSHEETS

E. 连一连磁铁在日常生活中的功用。 6%

1 

2

3 

- 指引方向
- 把文具盒合起来
- 把重要通告贴在冰箱上

F. 认得出地球表面的形状？连一连。 8%

1 

2 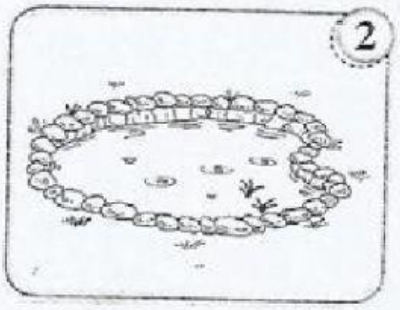

3 

4

- 河
- 海
- 池塘
- 高山

LIVEWORKSHEETS

G. 根据形状将物体涂上正确的颜色。 12%

棱柱体　圆锥体　长方体　圆柱体　棱锥体

1

2

3 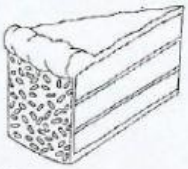

4

5

H. 写出以下物体的基本立体名称。 10%

三角形－红　长方形－黄　正方形－蓝　圆－橙

1 

2

3 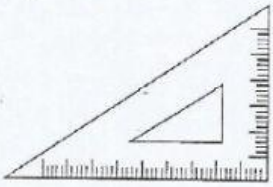

4

5 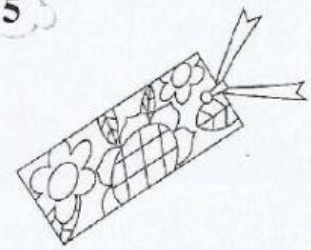

6 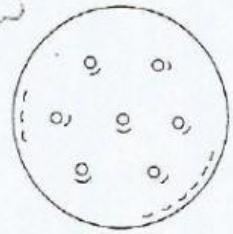

LIVEWORKSHEETS

I. 圈出正确的答案。 10%

1. 哪项物品有运用磁铁？

A

B

C 

2. 

以上的动物不适合在什么地形生存？

A

B

C

3. 下图显示丽婷所画的太阳。



丽婷没有用到哪种形状？

A 

B 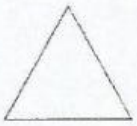

C

4. 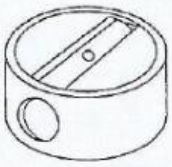

以上物体的基本立体是什么？

A 球体
B 圆柱体
C 圆锥体

5. 哪个磁铁组合会互相排斥？

A

B 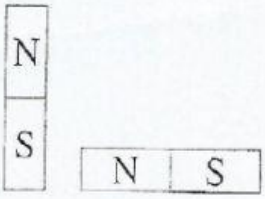

C 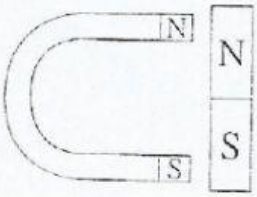

LIVEWORKSHEETS

J. 回答问题。 6%

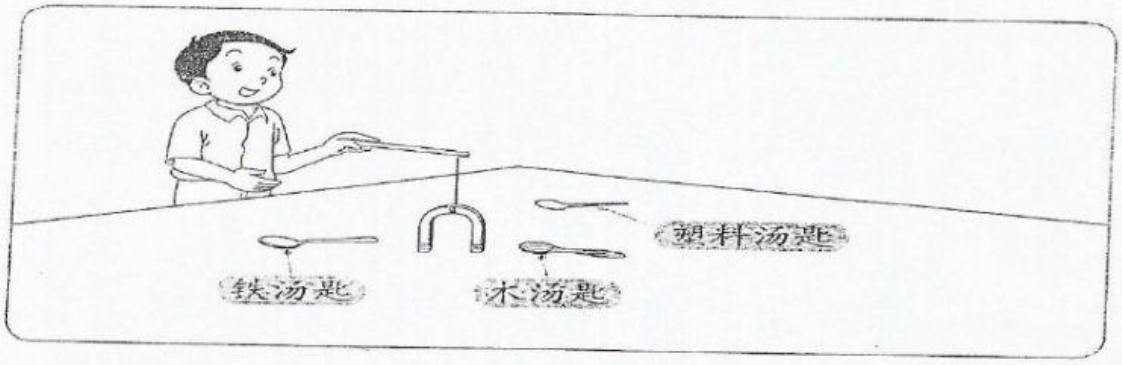

上图显示健峰所进行的一项实验。

1. 哪个汤匙能被磁铁吸引？画 ✓。

☐ 塑料汤匙　☐ 铁汤匙　☐ 木汤匙

2. 根据观察结果，把物体分类。 I-THINK

物体

i. 能被磁铁吸引　　ii. 不能被磁铁吸引

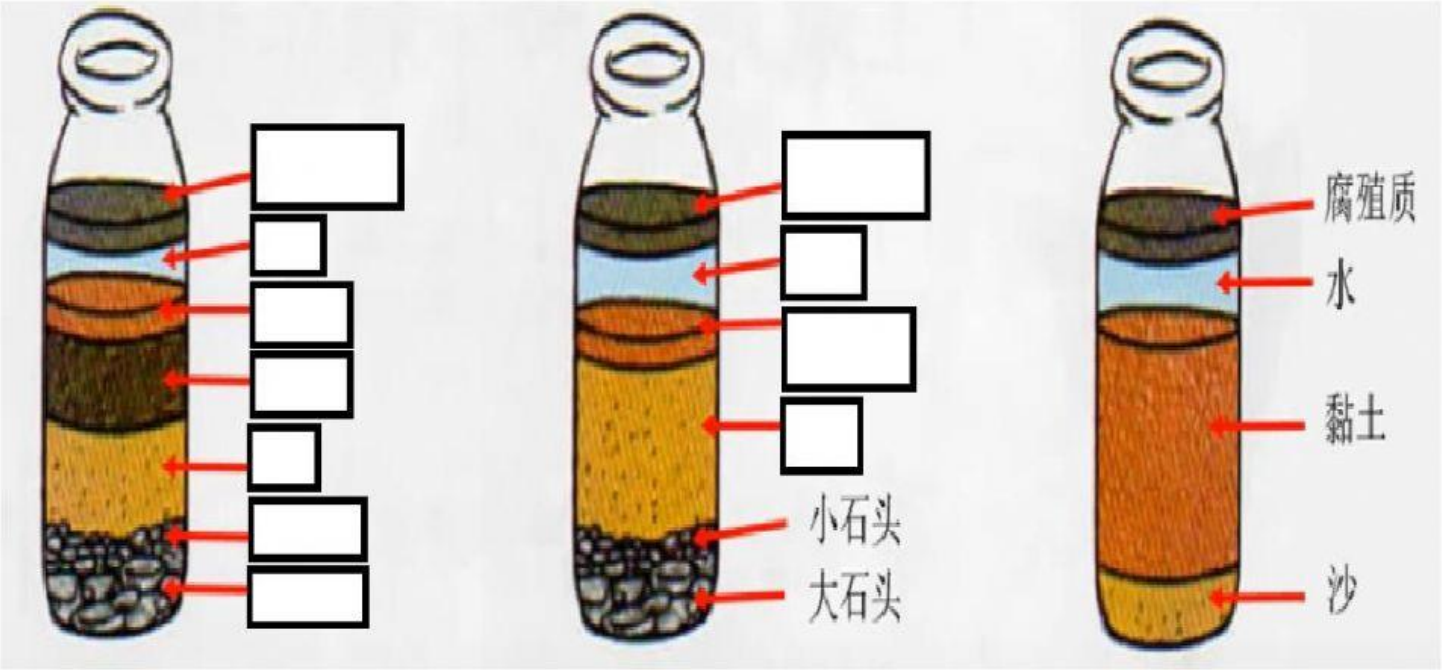

LIVEWORKSHEETS

K. 根据以下实验，回答问题。 12%

永勤到屋后的土地，用瓶子收集了土壤进行观察。

1. 以下是永勤观察到该土壤所含有的不同成分。圈出正确的答案。

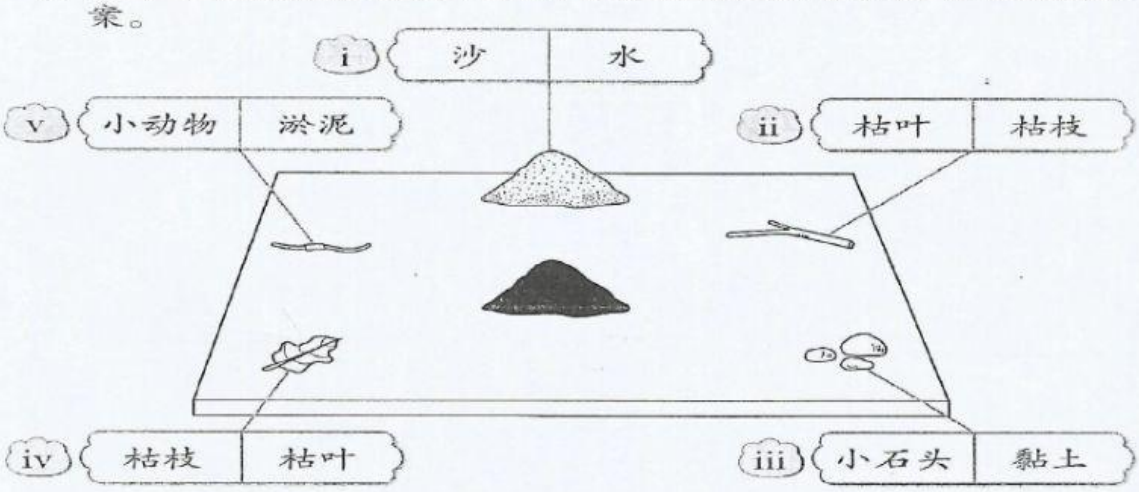

2. 永勤所研究的土壤是_____。

沙土　　黏土　　壤土

L. 回答以下问题。6%

启华分别把六种物体放进了一个装满水的盆子里。

1. 圈出三个吸水的物体。

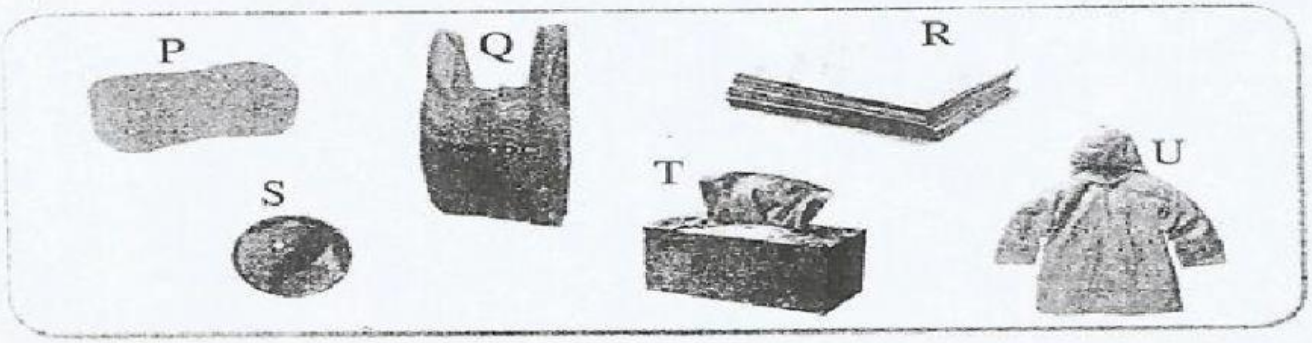

2. 根据以上三个吸水物体的吸水力，从最弱至最强顺序排列。

[ ] → [ ] → [ ]

LIVEWORKSHEETS

O. 把身体各部位的名称写在空格里。

手	嘴	腿	脚	舌头	耳朵	鼻子	眼睛

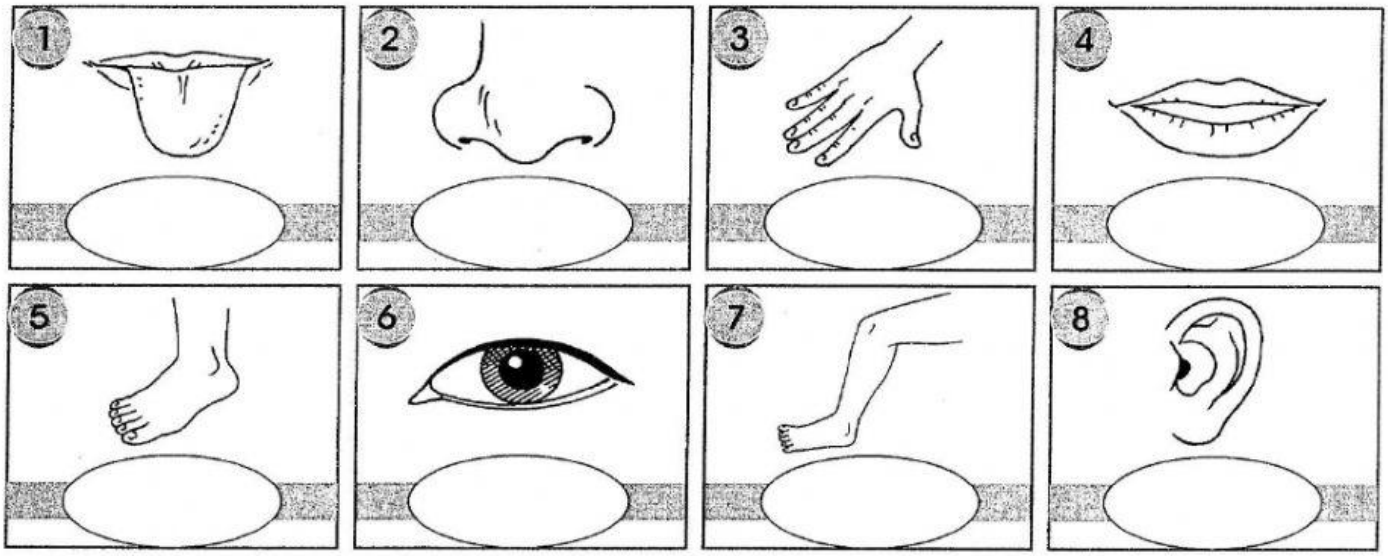

P. 写出以下动物正确的身体部位名称。



LIVEWORKSHEETS

R. 官能

i. _____ 是眼睛的官能。

ii. _____ 是耳朵的官能。

iii. _____ 是鼻子的官能。

iv. _____ 是舌头的官能。

v. _____ 是皮肤的官能。

官能的延申

_____、_____、_____、_____ 和 _____，它们延伸的是人的视觉功能；

_____ 延伸了盲人的触觉功能；

_____ 延伸了听力障碍者的听觉功能。

_____ 延伸了人的嗅觉功能。

LIVEWORKSHEETS