**Pendidikan Seni Visual**
**Tingkatan 1 KSSM**

**TAJUK 8 : HARMONI**

| | |
|---|---|
| 1 | Pilih antara pernyataan di bawah yang dapat menggambarkan prinsip harmoni .<br><br>A Kesepaduan antara unsur seni<br>B Satu penumpuan pada unsur seni<br>C Pertimbangan yang seimbang dan sepadan<br>D penggunaan unsur seni secara bertentangan |
| 2 | Antara motif di bawah yang manakah dapat menunjukkan prinsip harmoni ?<br><br> 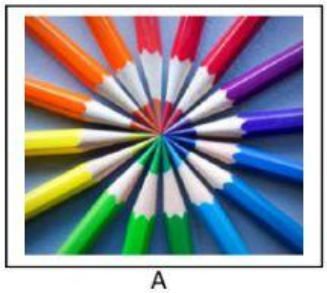 <br>A<br> 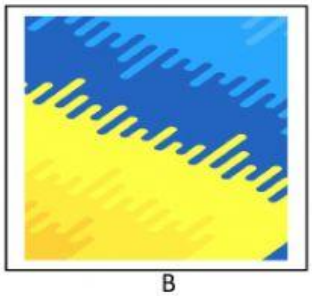 <br>B<br>  <br>C<br>  <br>D |
| 3 | Bagaimanakah cara mewujudkan suasana yang harmoni pada ruang tamu ?<br><br>I Hiasan yang minima<br>II Susun atur perabut kemas<br>III Ulangan perabot yang sama bentuk<br>IV Dinding dan perabot pada suhu warna yang sama<br><br>A I dan II<br>B I dan IV<br>C II dan III<br>D III dan IV |

LIVEWORKSHEETS

| | |
|---|---|
| 4 | Apakah teknik yang digunakan bagi mewujudkan nilai harmoni pada ukiran di bawah ?<br><br>A Motif menonjolkan prinsip ruang<br>B Nilai jalinan digunakan dengan seimbang<br>C Unsur rupa dan bentuk pada arah yang sama<br>D Kepelbagaian motif terhasil dari punca yang sama<br><br> |
| 5 | Bagaimanakah prinsip harmoni digunakan dalam catan air di bawah ?<br><br>A Unsur rupa seimbang<br>B Komposisi ruang perspektif<br>C Bentuk sepadu dengan persekitaran<br>D Penggunaan gubahan warna sewarna<br><br> |
| 6 | Apakah yang berlaku jika prinsip harmoni sering diulang dalam susun atur ruang dalaman .<br><br>A Menimbulkan kebosanan<br>B Menaikkan status ruang<br>C Memberi nilai tumpuan<br>D Menghidupkan ruang |
| 7 | Bagaimanakah prinsip harmoni wujud dalam olahan corak di bawah ?<br><br>A Ulangan unsur rupa<br>B Jarak antara rupa sekata<br>C Unsur pergerakan yang seimbang<br>D Susunan motif pada paksi yang sama<br><br>  |

LIVEWORKSHEETS

| | |
|---|---|
| 8 | Apakah kesan yang timbul hasil penggunaan prinsip harmoni dalam satu rekaan ?<br><br>A Kekosongan<br>B Keselesaan<br>C Keresahan<br>D Kecelaruan |
| 9 | Arca bentuk bunga yang terdapat di sebuah taman di bawah kelihatan harmoni kerana _____.<br><br>A Bentuk sepadan dengan persekitaran<br>B Reka bentuk yang menonjol<br>C Penggunaan warna sejuk<br>D Bentuk organik yang unik<br><br> |
| 10 | Bagaimanakah prinsip harmoni wujud pada gambar di bawah?<br><br>A Pengulangan ruang<br>B Pengulangan jalinan<br>C Pengulangan rupa<br>D Pengulangan bentuk<br><br>  |

LIVEWORKSHEETS